角の大きさ 11

◉ 時計回りの角の作図

日にち：　　月　　日

名まえ

・点アを頂点として、次の大きさの角をかきましょう。

① 40°



② 110°

③ 35°

④ 105°

すらすらぷりんと

角の大きさ 11

◉ 時計回りの角の作図

日にち：　　月　　日

名まえ

・点アを頂点として、次の大きさの角をかきましょう。

① 40°

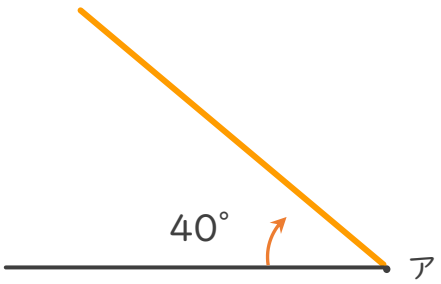

② 110°

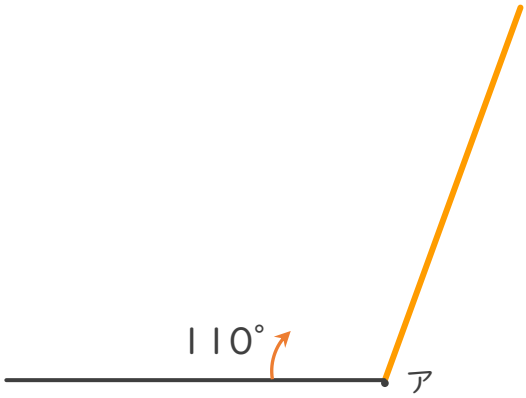

③ 35°

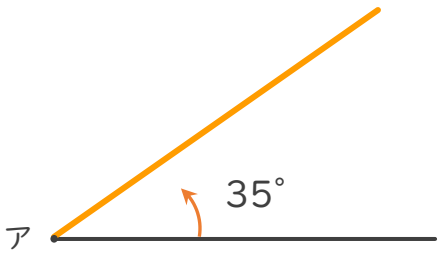

④ 105°

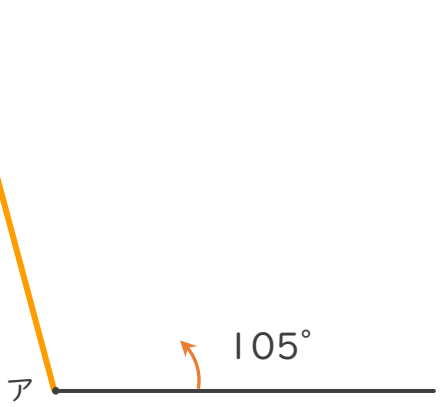

すらすらぷりんと