分数（分数の表し方）1

◎ 真分数・帯分数・仮分数とは　11

日にち：　　月　　日

名まえ

1　次の分数は、真分数、仮分数、帯分数のどれですか。

① $3\frac{1}{10}$　　② $\frac{5}{2}$　　③ $\frac{8}{9}$

④ $2\frac{4}{7}$　　⑤ $\frac{2}{2}$　　⑥ $\frac{11}{6}$

答え：　①　　②　　③

④　　⑤　　⑥

2　色をぬった部分の長さを、仮分数と帯分数の両方で表しましょう

①

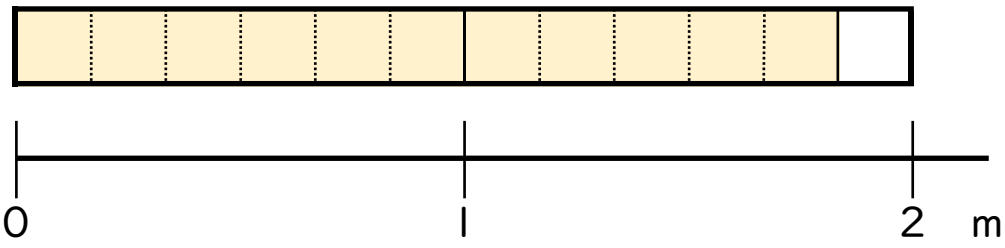

答え：　仮分数…　　帯分数…

②

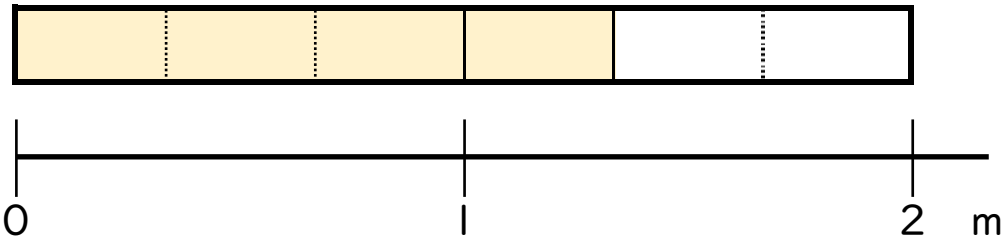

答え：　仮分数…　　帯分数…

すらすらぷりんと

分数（分数の表し方）1

◎ 真分数・帯分数・仮分数とは

11

日にち：　　月　　日

名まえ

1　次の分数は、真分数、仮分数、帯分数のどれですか。

① $3\frac{1}{10}$　　② $\frac{5}{2}$　　③ $\frac{8}{9}$

④ $2\frac{4}{7}$　　⑤ $\frac{2}{2}$　　⑥ $\frac{11}{6}$

答え：　① 帯分数　② 仮分数　③ 真分数

④ 帯分数　⑤ 仮分数　⑥ 仮分数

2　色をぬった部分の長さを、仮分数と帯分数の両方で表しましょう

①

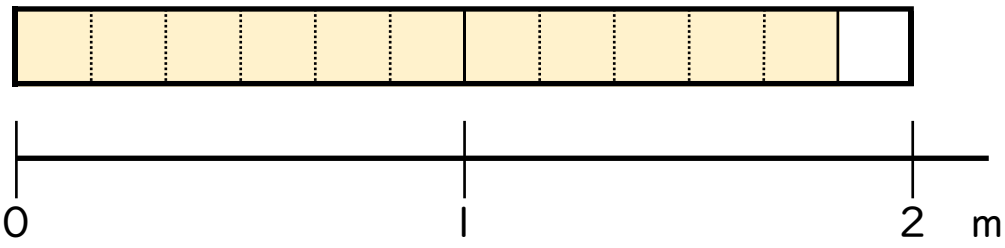

答え：　仮分数…　$\frac{11}{6}$　　帯分数…　$1\frac{5}{6}$

②

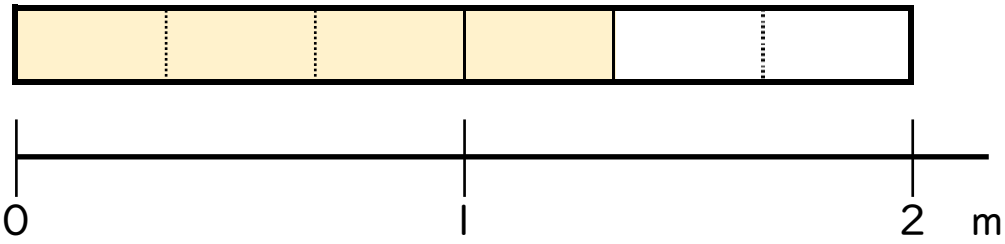

答え：　仮分数…　$\frac{4}{3}$　　帯分数…　$1\frac{1}{3}$

すらすらぷりんと