角の大きさ 8

◎ 180° に
足して求める角度

11

日にち：　　月　　日

名まえ

・ ㋐ の角度を、計算で求めましょう。

①

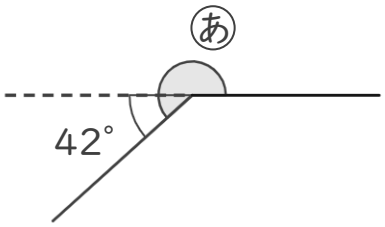

式：　　答え（　　）

②

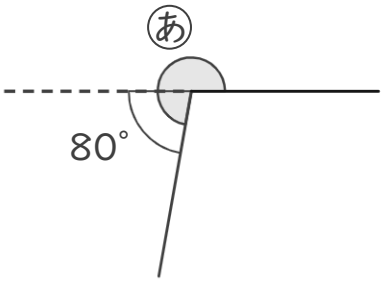

式：　　答え（　　）

③



式：　　答え（　　）

④

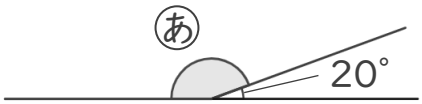

式：　　答え（　　）

すらすらぷりんと

角の大きさ 8

◎ 180° に
足して求める角度

11

日にち：　　月　　日

名まえ

・ ㋐ の角度を、計算で求めましょう。

①

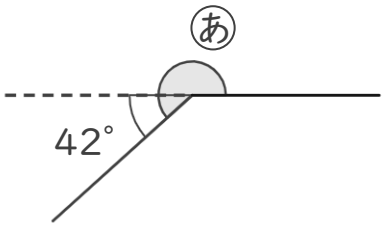

式： 180°＋ 42°＝ 222°　　答え（ 222° ）

②

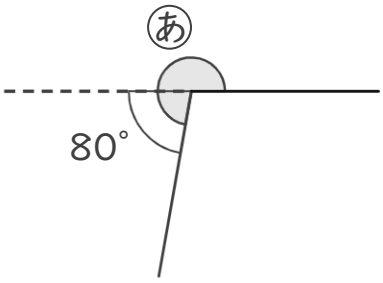

式： 180°＋ 80° ＝ 260°　　答え（ 260° ）

③



式： 180°－ 134° ＝ 46°　　答え（ 46° ）

④

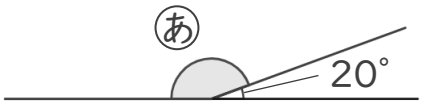

式： 180°－ 20° ＝ 160°　　答え（ 160° ）

すらすらぷりんと