角の大きさ 15

◎ 三角じょうぎを重ねて作る角度

12

日にち：　　月　　日

名まえ

・三角じょうぎでできる ㋐の角度をもとめましょう。

①

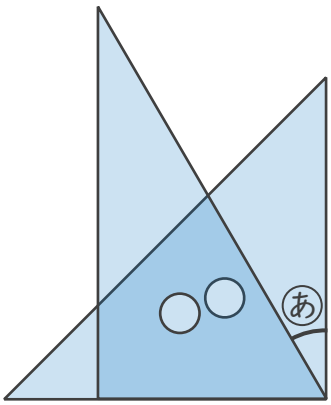

式：

答え（　　）

②

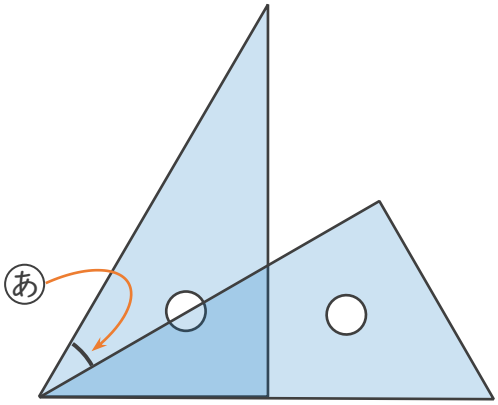

式：

答え（　　）

③

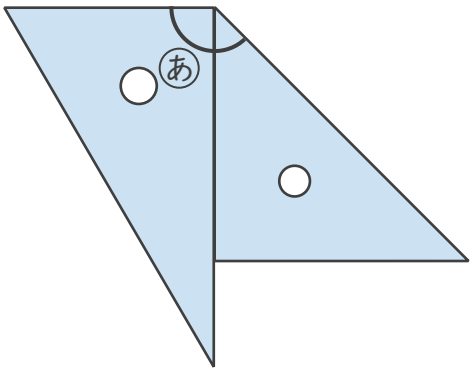

式：

答え（　　）

④

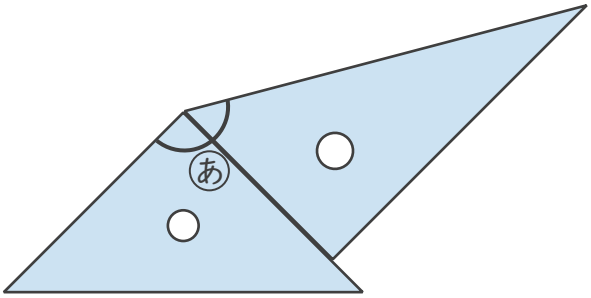

式：

答え（　　）

すらすらぷりんと

角の大きさ 15

◎ 三角じょうぎを重ねて作る角度

12

日にち：　　月　　日

名まえ

・三角じょうぎでできる ㋐の角度をもとめましょう。

①

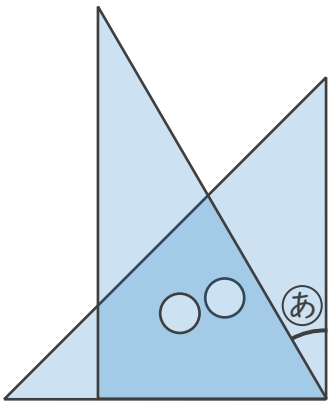

式：$90^\circ - 60^\circ = 30^\circ$

答え（　30°　）

②

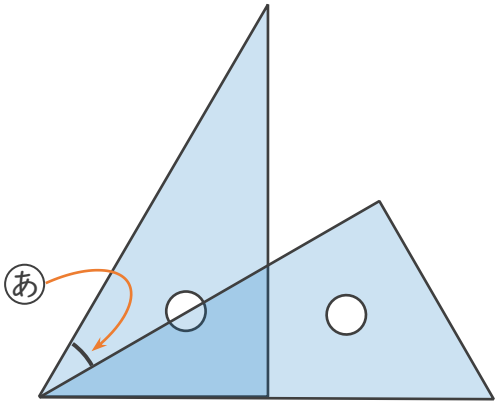

式：$60^\circ - 30^\circ = 30^\circ$

答え（　30°　）

③

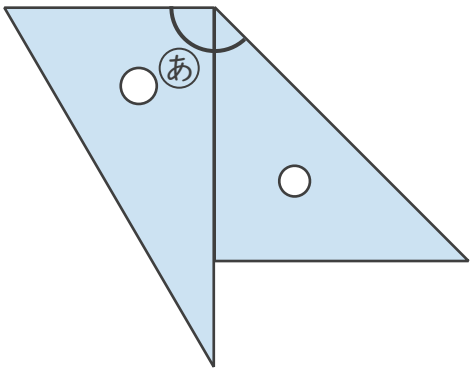

式：$90^\circ + 45^\circ = 135^\circ$

答え（　135°　）

④

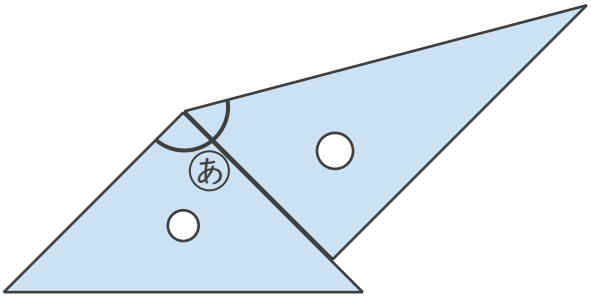

式：$90^\circ + 60^\circ = 150^\circ$

答え（　150°　）

すらすらぷりんと