角の大きさ 17

◎ 三角形の作図
（一辺とその両たんの角）

12

日にち：　　月　　日

名まえ

1　じょうぎと分度器をつかって、下のような三角形をかきましょう。

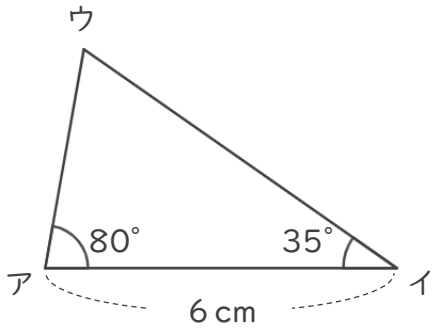

2　㋐，㋑ の角度はそれぞれ何度ですか。

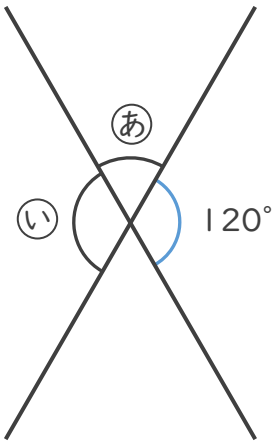

式：

㋐（　　）

㋑（　　）

すらすらぷりんと

角の大きさ 17

◎ 三角形の作図
（一辺とその両たんの角）

12

日にち：　　月　　日

名まえ

1　じょうぎと分度器をつかって、下のような三角形をかきましょう。

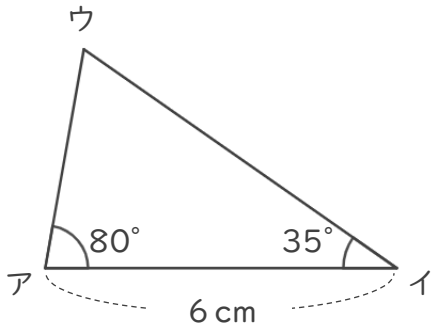

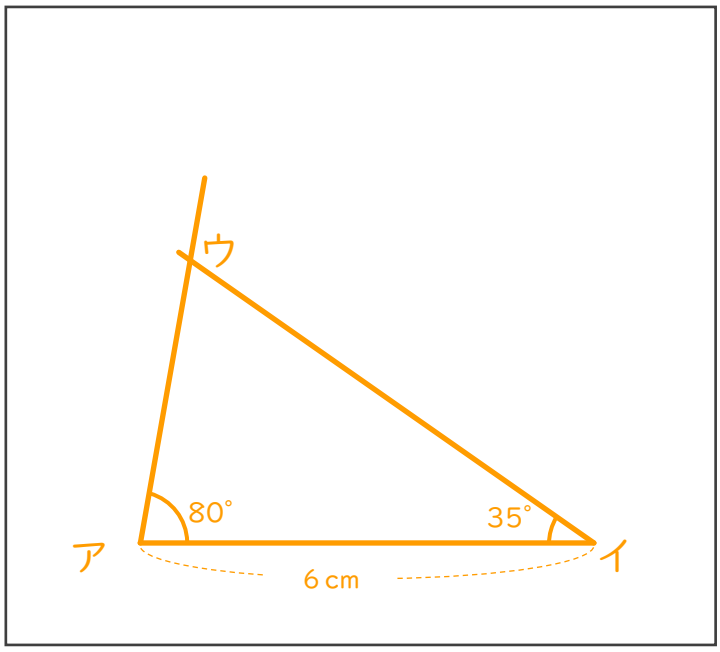

2　あ，い の角度はそれぞれ何度ですか。

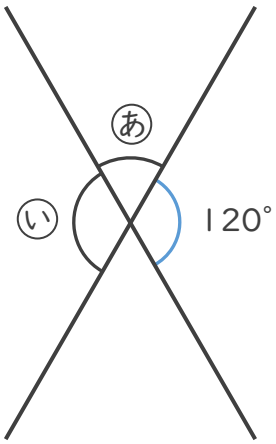

式：　あ の角度は、

$180° - 120° = 60°$

い の角度は、

$180° - 60° = 120°$

あ（　60°　）

い（　120°　）

すらすらぷりんと