# 角の大きさ 2

◎ 分度器で角度をはかる
（反時計回り）

12

日にち：　　月　　日

名まえ

・分度器（ぶんどき）を使って角度をはかりましょう。

①

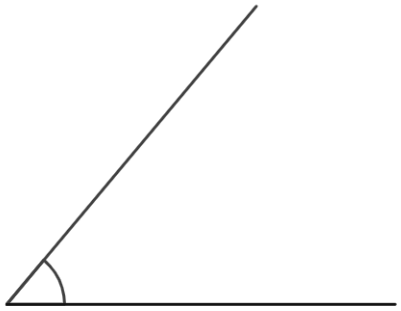

答え（　　）

②

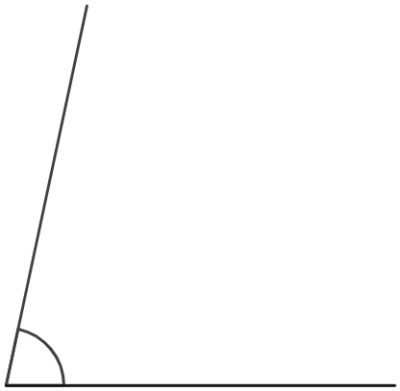

答え（　　）

③

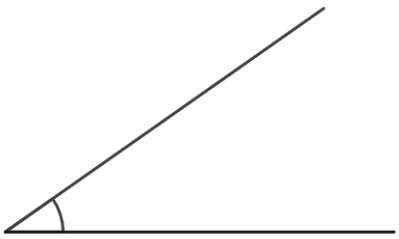

答え（　　）

④

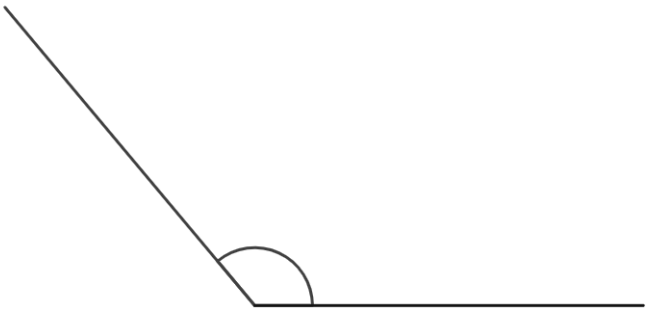

答え（　　）



すらすらぷりんと

# 角の大きさ 2

◎ 分度器で角度をはかる
（反時計回り）

12

日にち：　　月　　日

名まえ

・分度器を使って角度をはかりましょう。

①

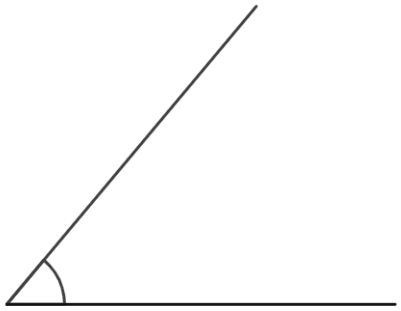

答え（　50°　）

②

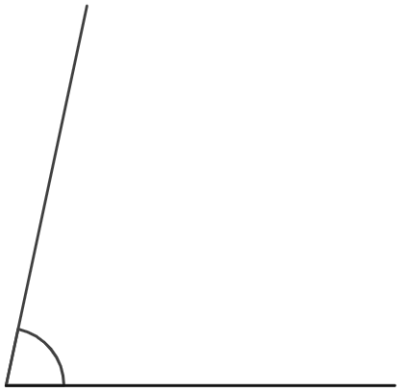

答え（　78°　）

③

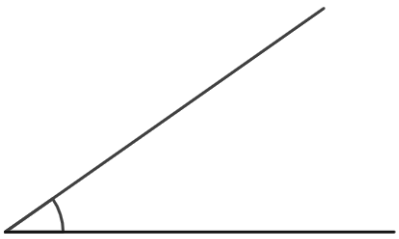

答え（　35°　）

④

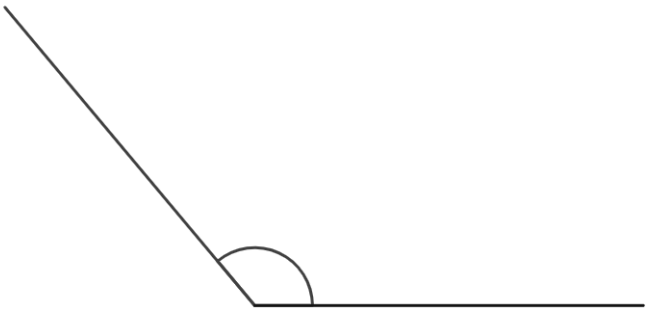

答え（　130°　）



すらすらぷりんと