角の大きさ 10

◉ 反時計回りの角の作図

12

日にち：　　月　　日

名まえ

1　次の角をかきましょう。

① 65°

② 130°





2　あの角度を、計算で求めましょう。

①

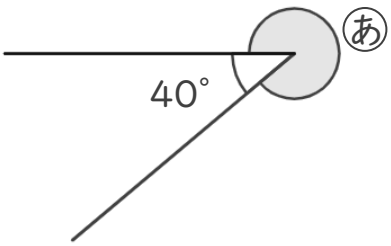

式：　　答え（　　）

②

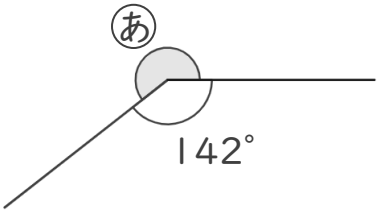

式：　　答え（　　）

すらすらぷりんと

角の大きさ 10

◉ 反時計回りの角の作図

12

日にち：　　月　　日

名まえ

1　次の角をかきましょう。

① 65°

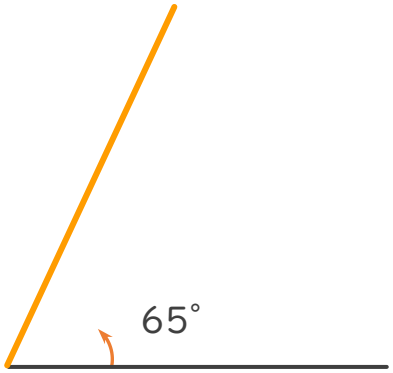

② 130°

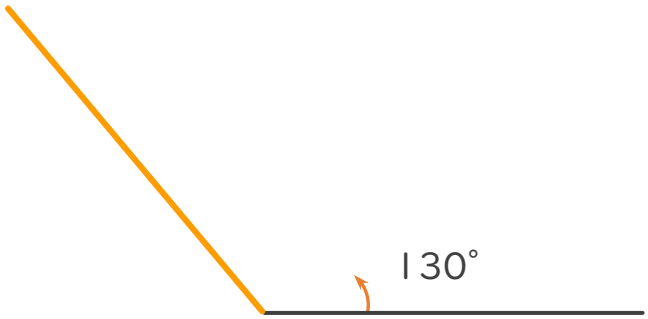

2　あの角度を、計算で求めましょう。

①

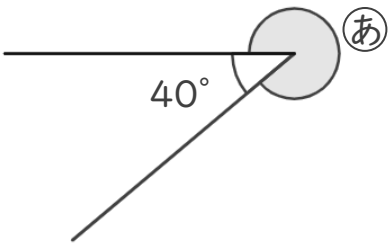

式：360° − 40° ＝ 320°　　答え（　320°　）

②

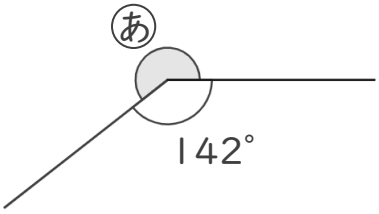

式：360° − 142° ＝ 218°　　答え（　218°　）

すらすらぷりんと