角の大きさ 9

◎ 360° から
引いて求める角度

12

日にち：　　月　　日

名まえ

・ ㋐ の角度を、計算で求めましょう。

①

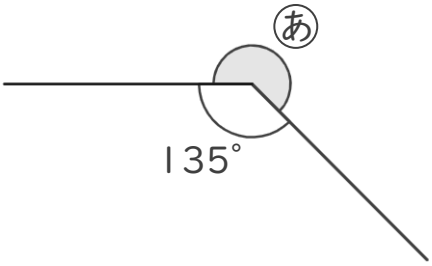

式：　　答え（　　）

②

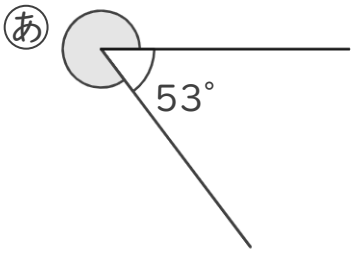

式：　　答え（　　）

③

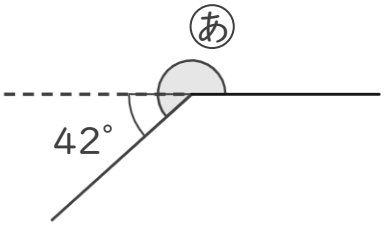

式：　　答え（　　）

④

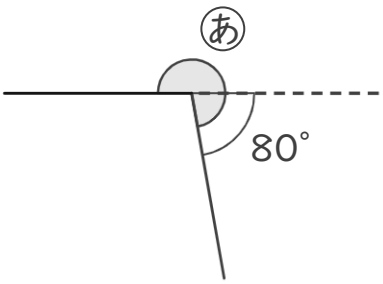

式：　　答え（　　）

すらすらぷりんと

角の大きさ 9

◎ 360° から
引いて求める角度

12

日にち：　　月　　日

名まえ

・ ㋐ の角度を、計算で求めましょう。

①

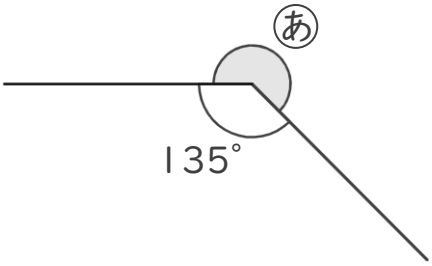

式： 360° − 135° ＝ 225°　答え（ 225° ）

②

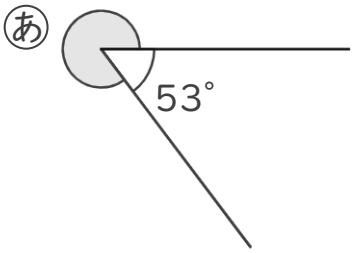

式： 360° − 53° ＝ 307°　答え（ 307° ）

③

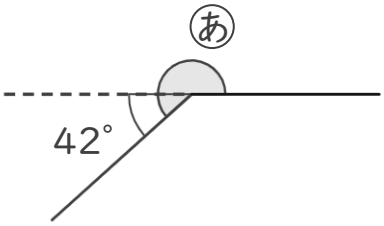

式： 180° ＋ 42° ＝ 222°　答え（ 222° ）

④

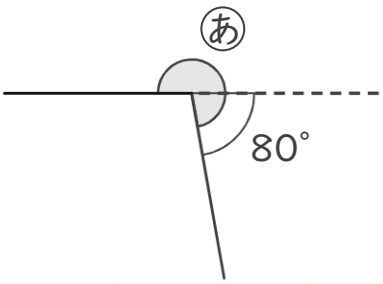

式： 180° ＋ 80° ＝ 260°　答え（ 260° ）

すらすらぷりんと