角の大きさ 4

◎ 分度器で角度をはかる
（分度器より短い角）

13

日にち：　　月　　日

名まえ

・次の角度をくふうしてはかりましょう。

①

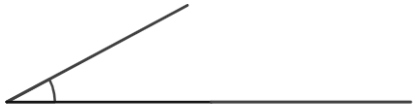

答え（　　）

②

答え（　　）

③

答え（　　）

④

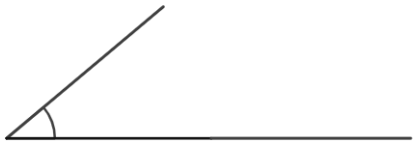

答え（　　）

すらすらぷりんと

角の大きさ 4

◎ 分度器で角度をはかる
（分度器より短い角）

13

日にち：　　月　　日

名まえ

・次の角度をくふうしてはかりましょう。

①

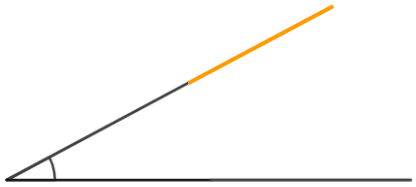

答え（　28°　）

②

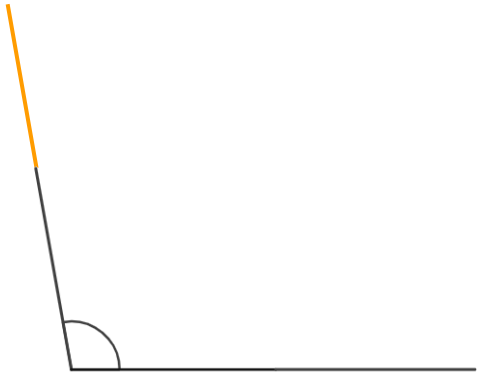

答え（　100°　）

③

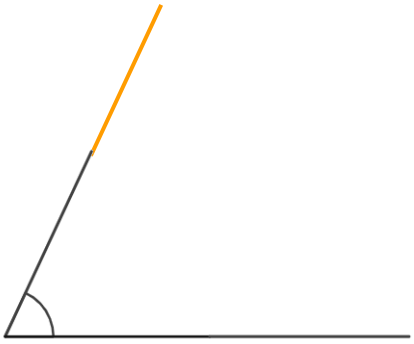

答え（　65°　）

④

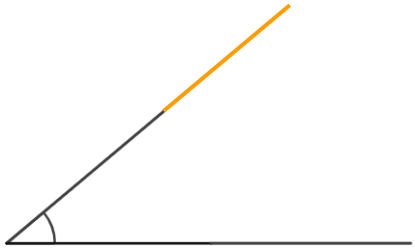

答え（　40°　）

すらすらぷりんと