角の大きさ 2

◎ 分度器で角度をはかる
（反時計回り）

13

日にち：　　月　　日

名まえ

・分度器（ぶんどき）を使って角度をはかりましょう。

①

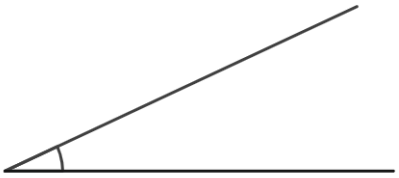

答え（　　）

②

答え（　　）

③

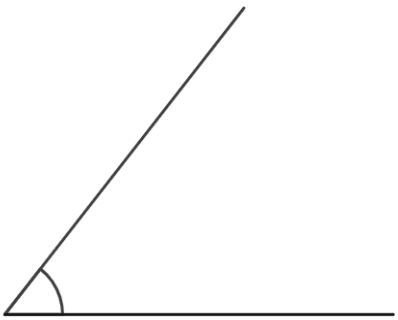

答え（　　）

④

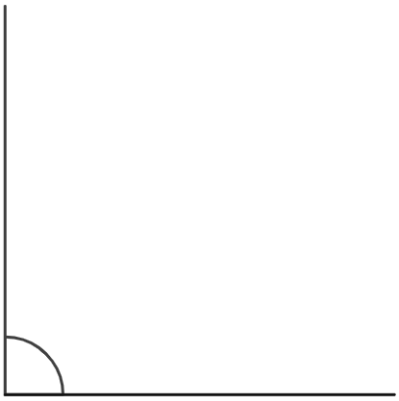

答え（　　）

すらすらぷりんと

角の大きさ 2

◎ 分度器で角度をはかる（反時計回り）

13

日にち：　　月　　日

名まえ

・分度器（ぶんどき）を使って角度をはかりましょう。

①

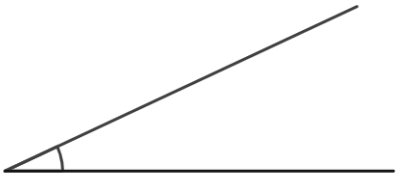

答え（　25°　）

②

答え（　160°　）

③

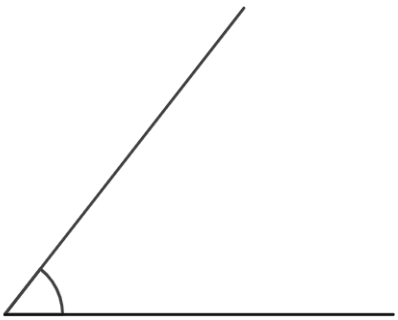

答え（　52°　）

④

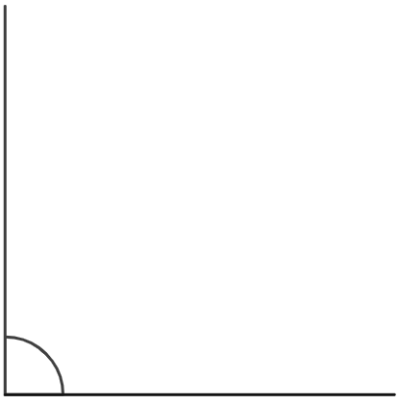

答え（　90°　）

すらすらぷりんと