角の大きさ 10

◉ 反時計回りの角の作図

13

日にち：　　月　　日

名まえ

1　次の角をかきましょう。

① 40°

② 115°



2　あの角度を、計算で求めましょう。

①

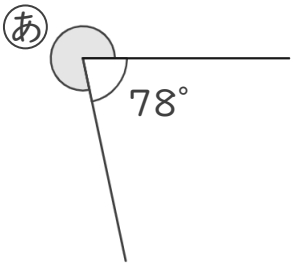

式：　　答え（　　）

②

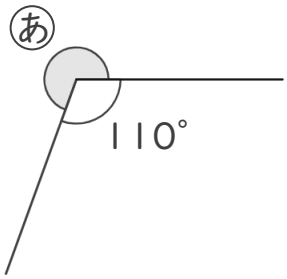

式：　　答え（　　）

すらすらぷりんと

角の大きさ 10

◉ 反時計回りの角の作図

13

日にち：　　月　　日

名まえ

1　次の角をかきましょう。

① 40°

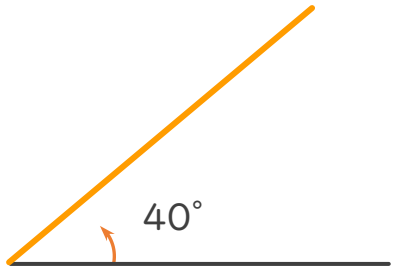

② 115°

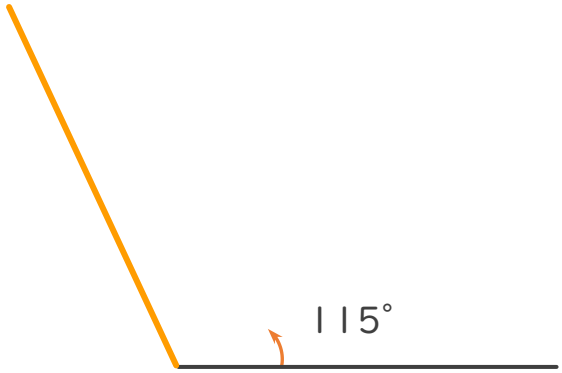

2　あの角度を、計算で求めましょう。

①

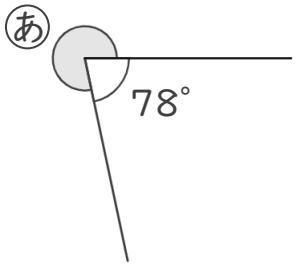

式：360° − 78° ＝ 282°　　答え（　282°　）

②

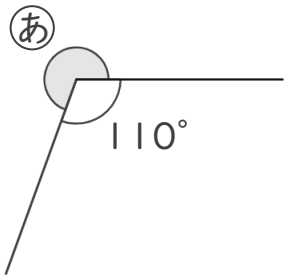

式：360° − 110° ＝ 250°　　答え（　250°　）

すらすらぷりんと