分数（分数の表し方）1　13

◎ 真分数・帯分数・仮分数とは

日にち：　　月　　日

名まえ

1　次の分数は、真分数、仮分数、帯分数のどれですか。

① $\frac{2}{9}$　　② $1\frac{7}{15}$　　③ $\frac{4}{3}$

④ $\frac{14}{9}$　　⑤ $\frac{2}{3}$　　⑥ $2\frac{1}{8}$

答え：　①　　②　　③

④　　⑤　　⑥

2　色をぬった部分の長さを、仮分数と帯分数の両方で表しましょう

①

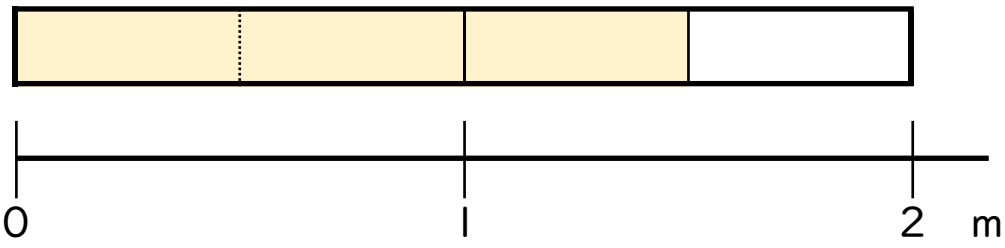

答え：　仮分数…　　帯分数…

②

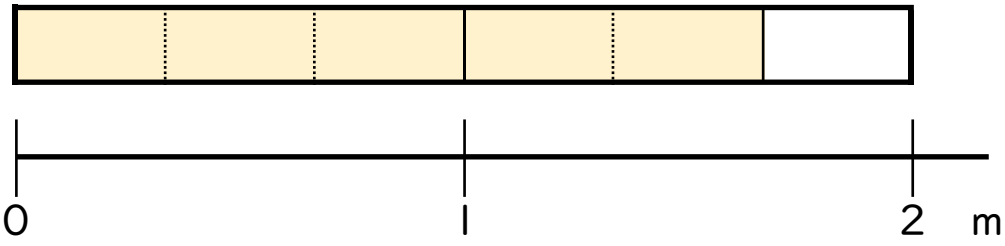

答え：　仮分数…　　帯分数…

すらすらぷりんと

分数（分数の表し方）1　13

◎ 真分数・帯分数・仮分数とは

日にち：　　月　　日

名まえ

1　次の分数は、真分数、仮分数、帯分数のどれですか。

① $\frac{2}{9}$　　② $1\frac{7}{15}$　　③ $\frac{4}{3}$

④ $\frac{14}{9}$　　⑤ $\frac{2}{3}$　　⑥ $2\frac{1}{8}$

答え：　① 真分数　② 帯分数　③ 仮分数

④ 仮分数　⑤ 真分数　⑥ 帯分数

2　色をぬった部分の長さを、仮分数と帯分数の両方で表しましょう

①

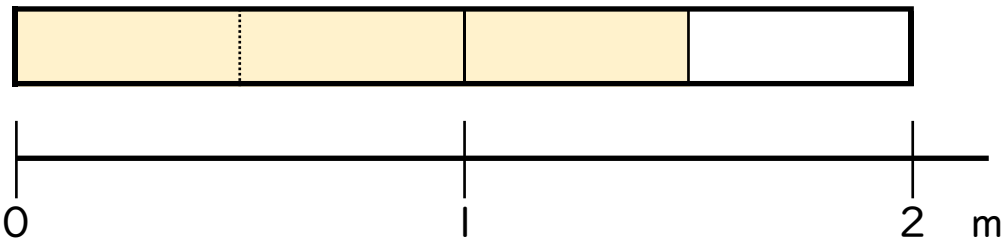

答え：　仮分数…　$\frac{3}{2}$　　帯分数…　$1\frac{1}{2}$

②

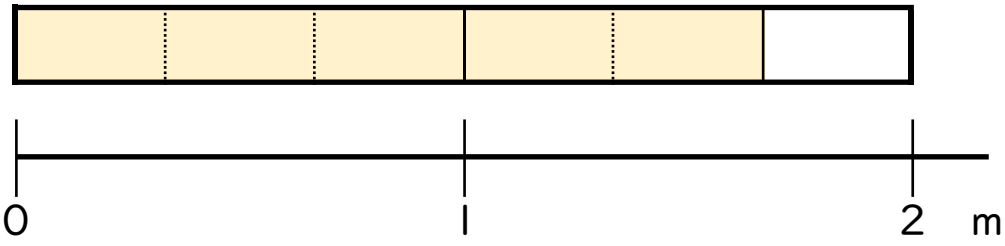

答え：　仮分数…　$\frac{5}{3}$　　帯分数…　$1\frac{2}{3}$

すらすらぷりんと