角の大きさ 8

◎ 180° に足して求める角度

13

日にち：　　月　　日

名まえ

・ ㋐ の角度を、計算で求めましょう。

①

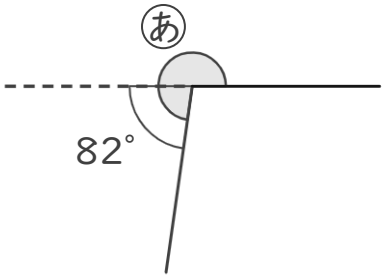

式：　　答え（　　）

②

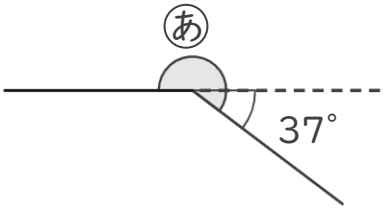

式：　　答え（　　）

③

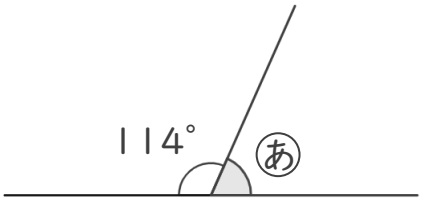

式：　　答え（　　）

④

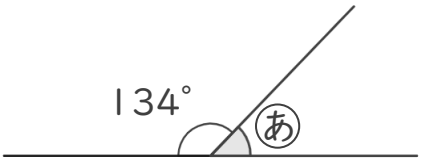

式：　　答え（　　）

すらすらぷりんと

角の大きさ 8

◎ 180° に足して求める角度

13

日にち：　　月　　日

名まえ

・ ㋐ の角度を、計算で求めましょう。

①

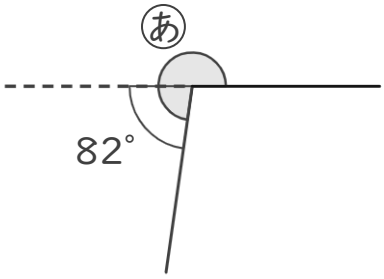

式： 180°＋ 82°＝ 262°　　答え（ 262° ）

②

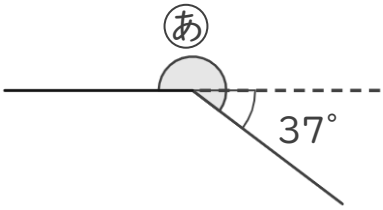

式： 180°＋ 37°＝ 217°　　答え（ 217° ）

③

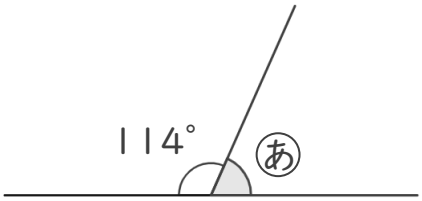

式： 180°－ 114°＝ 66°　　答え（ 66° ）

④

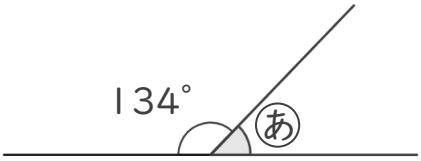

式： 180°－ 134°＝ 46°　　答え（ 46° ）

すらすらぷりんと