角の大きさ 9

◎ 360° から
引いて求める角度

13

日にち：　　月　　日

名まえ

・ ㋐ の角度を、計算で求めましょう。

①

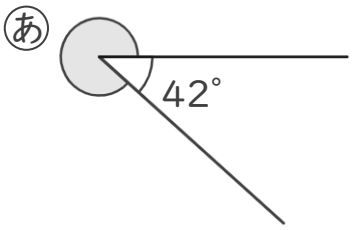

式：　　答え（　　）

②

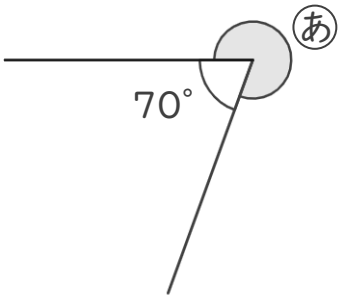

式：　　答え（　　）

③

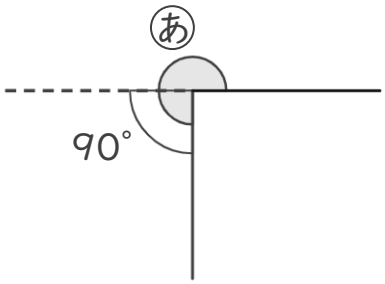

式：　　答え（　　）

④

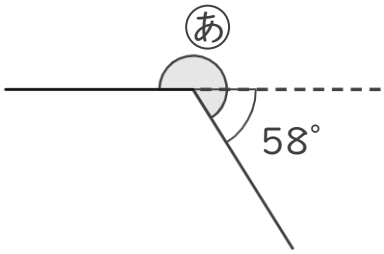

式：　　答え（　　）

すらすらぷりんと

角の大きさ 9

◎ 360° から引いて求める角度

13

日にち：　　月　　日

名まえ

・ ㋐ の角度を、計算で求めましょう。

①

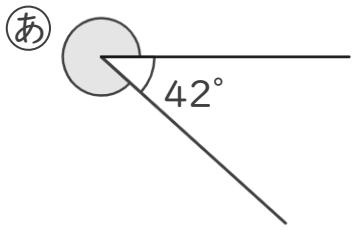

式： 360° − 42° ＝ 318°　　答え（ 318° ）

②

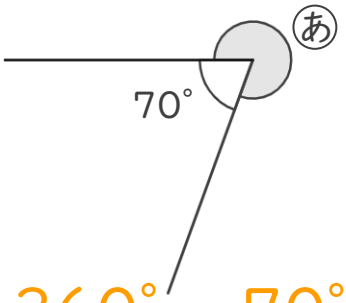

式： 360° − 70° ＝ 290°　　答え（ 290° ）

③

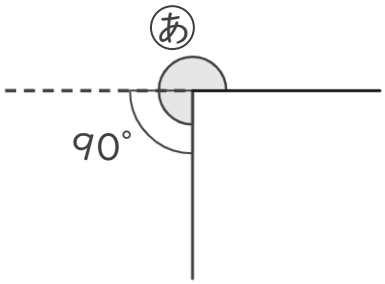

式： 180° ＋ 90° ＝ 270°　　答え（ 270° ）

④

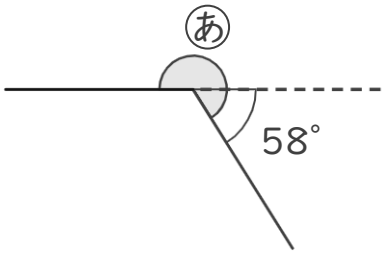

式： 180° ＋ 58° ＝ 238°　　答え（ 238° ）

すらすらぷりんと