角の大きさ 3

◎ 分度器で角度をはかる（時計回り）

14

日にち：　　月　　日

名まえ

・分度器（ぶんどき）を使って角度をはかりましょう。

①

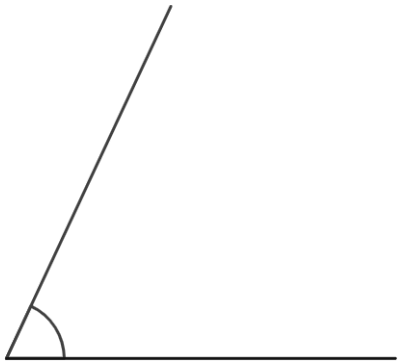

答え（　　）

②

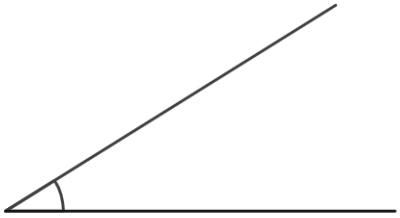

答え（　　）

③

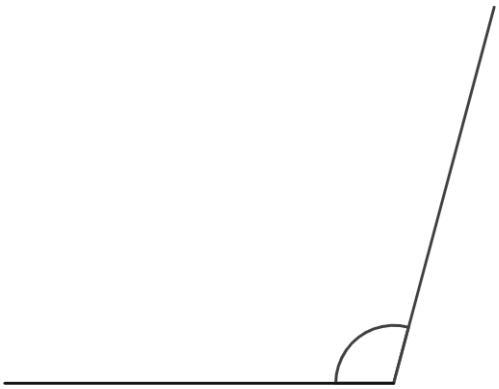

答え（　　）

④

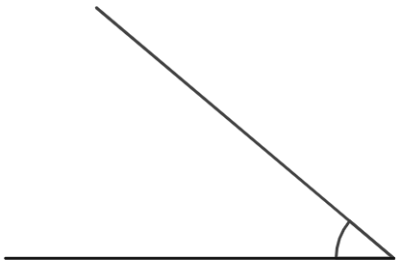

答え（　　）

すらすらぷりんと

角の大きさ 3

◎ 分度器で角度をはかる（時計回り）

14

日にち：　　月　　日

名まえ

・分度器（ぶんどき）を使って角度をはかりましょう。

①

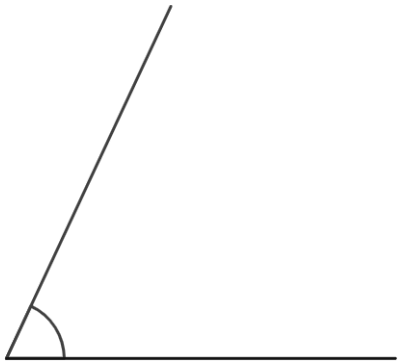

答え（ 65° ）

②

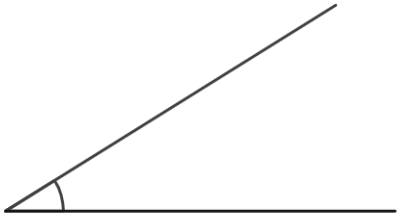

答え（ 32° ）

③

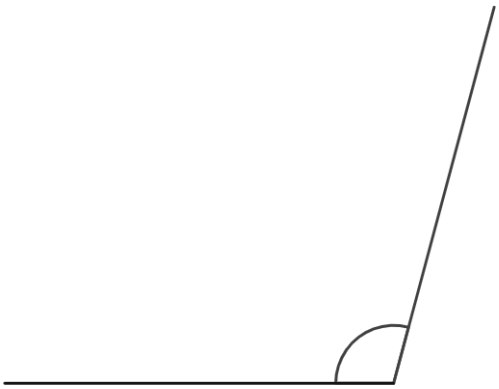

答え（ 105° ）

④

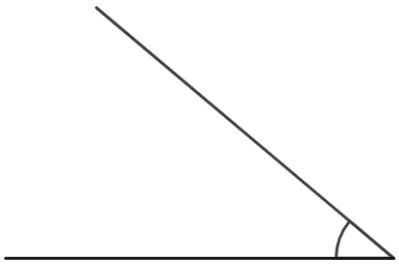

答え（ 40° ）

すらすらぷりんと