角の大きさ 10

◉ 反時計回りの角の作図

14

日にち：　　月　　日

名まえ

1　次の角をかきましょう。

①　40°

②　115°



2　あの角度を、計算で求めましょう。

①

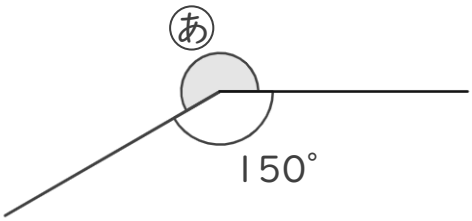

式：　　答え（　　）

②

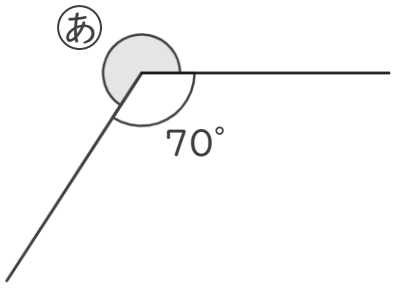

式：　　答え（　　）

すらすらぷりんと

角の大きさ 10

◉ 反時計回りの角の作図

14

日にち：　　月　　日

名まえ

1　次の角をかきましょう。

① 40°

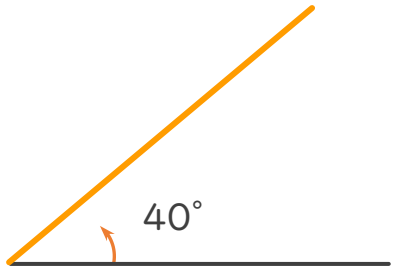

② 115°

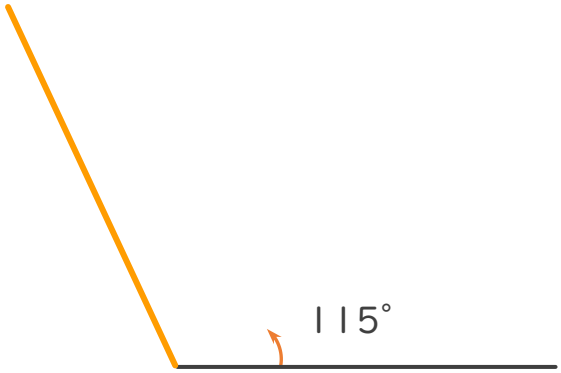

2　あの角度を、計算で求めましょう。

①

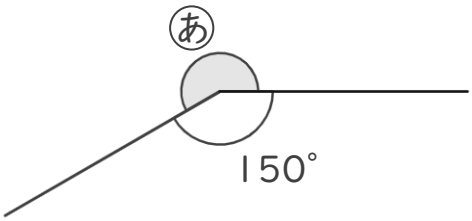

式：360° − 150° ＝ 210°　答え（　210°　）

②

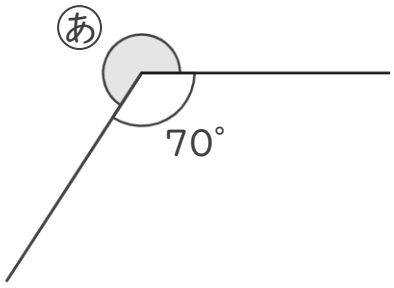

式：360° − 70° ＝ 290°　答え（　290°　）

すらすらぷりんと