# 角の大きさ 11

◉ 時計回りの角の作図

14

日にち：　　月　　日

名まえ

・点アを頂点として、次の大きさの角をかきましょう。

① 70°




② 115°

③ 30°

④ 75°

すらすらぷりんと

# 角の大きさ 11

◉ 時計回りの角の作図

14

日にち：　　月　　日

名まえ

・点アを頂点として、次の大きさの角をかきましょう。

① 70°

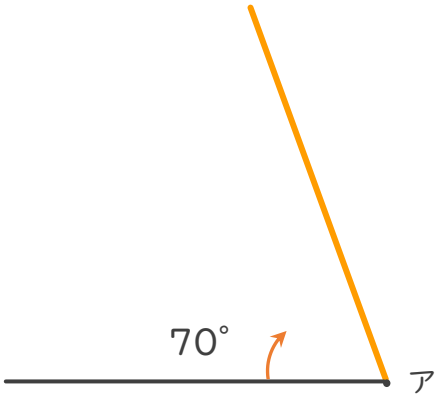


② 115°

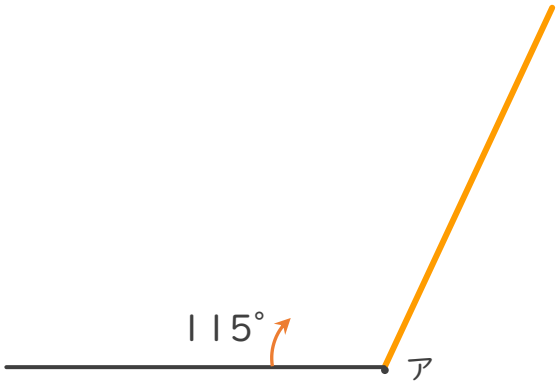


③ 30°

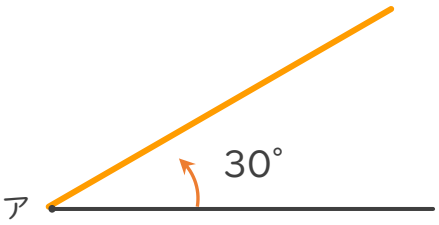


④ 75°

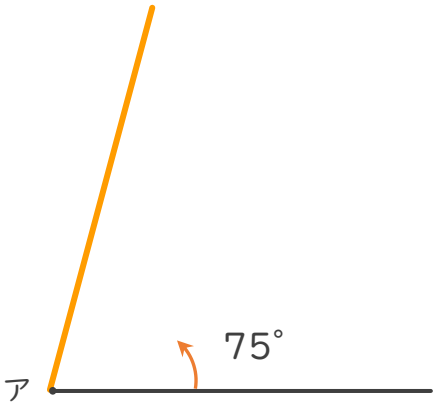




すらすらぷりんと