角の大きさ 7

◎ 180° から
引いて求める角度

14

日にち：　　月　　日

名まえ

・ ㋐ の角度を、計算で求めましょう。

①

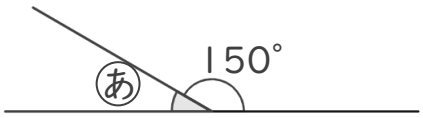

式：　　答え（　　）

②

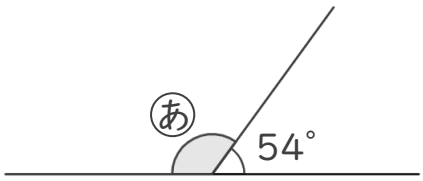

式：　　答え（　　）

③

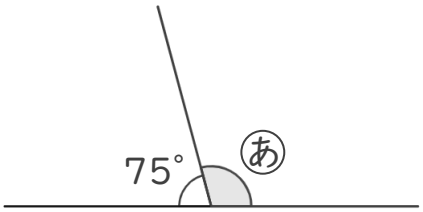

式：　　答え（　　）

④

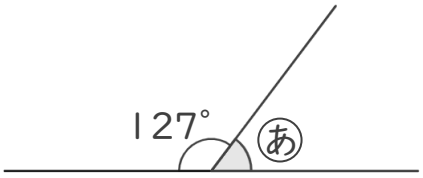

式：　　答え（　　）

すらすらぷりんと

角の大きさ 7

◎ 180° から
引いて求める角度

14

日にち：　　月　　日

名まえ

・ ㋐ の角度を、計算で求めましょう。

①

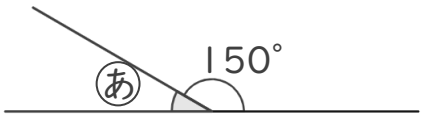

式： 180° − 150° ＝ 30°　　答え（ 30° ）

②

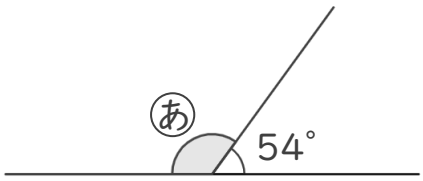

式： 180° − 54° ＝ 126°　　答え（ 126° ）

③

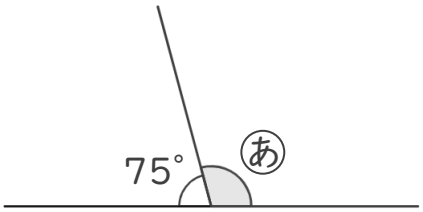

式： 180° − 75° ＝ 105°　　答え（ 105° ）

④

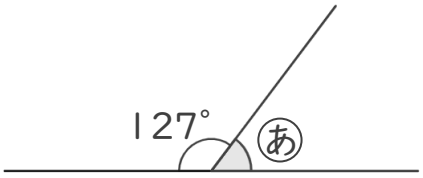

式： 180° − 127° ＝ 53°　　答え（ 53° ）

すらすらぷりんと