角の大きさ 8

◎ 180° に足して求める角度

14

日にち：　　月　　日

名まえ

・ ㋐ の角度を、計算で求めましょう。

①

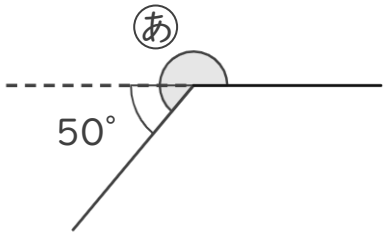

式：　　答え（　　）

②

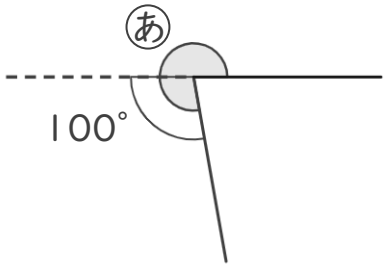

式：　　答え（　　）

③

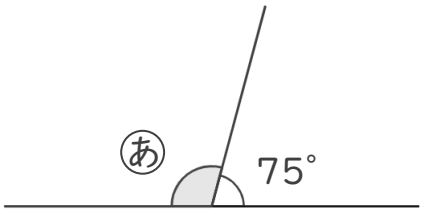

式：　　答え（　　）

④

式：　　答え（　　）

すらすらぷりんと

角の大きさ 8

◎ 180° に足して求める角度

14

日にち：　　月　　日

名まえ

・ ㋐ の角度を、計算で求めましょう。

①

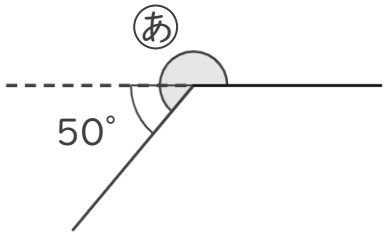

式： 180°＋ 50°＝ 230°　　答え（ 230° ）

②

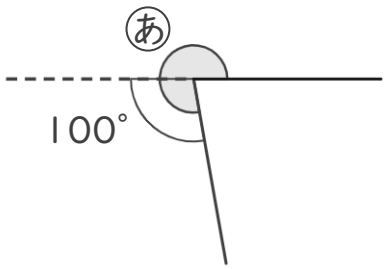

式： 180°＋ 100°＝ 280°　　答え（ 280° ）

③

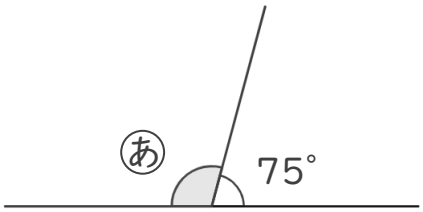

式： 180°－ 75°＝ 105°　　答え（ 105° ）

④

式： 180°－ 127°＝ 53°　　答え（ 53° ）

すらすらぷりんと