角の大きさ 15

◎ 三角じょうぎを重ねて作る角度

15

めざせ75点！

てん

名まえ

・三角じょうぎでできる ㋐の角度をもとめましょう。（各25点）

①

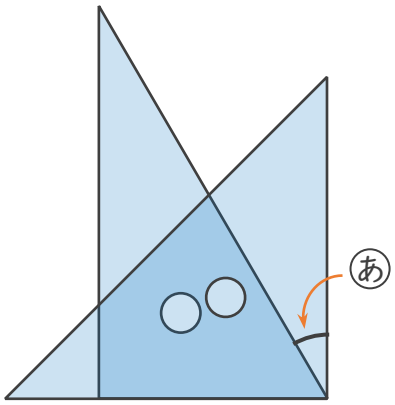

式：

答え（　　）

②

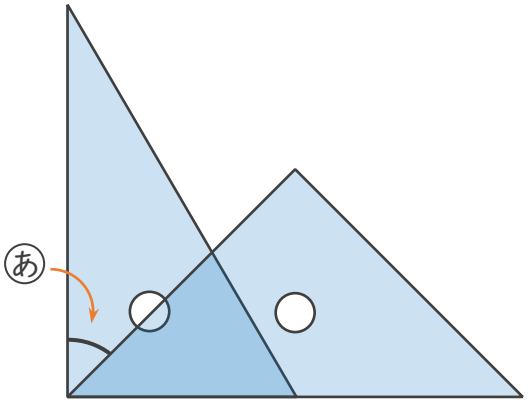

式：

答え（　　）

③

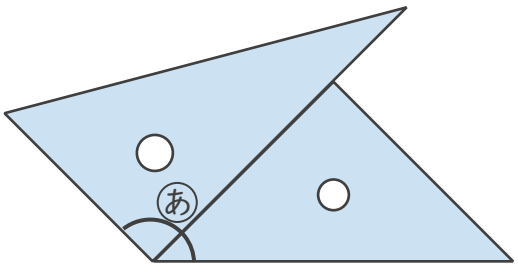

式：

答え（　　）

④

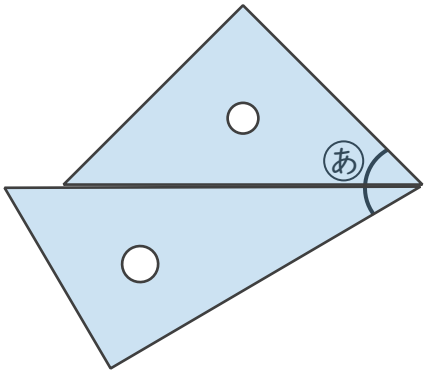

式：

答え（　　）

すらすらぷりんと

角の大きさ 15

◎ 三角じょうぎを重ねて作る角度

15

めざせ75点！ てん

名まえ

・三角じょうぎでできる ㋐の角度をもとめましょう。（各25点）

①

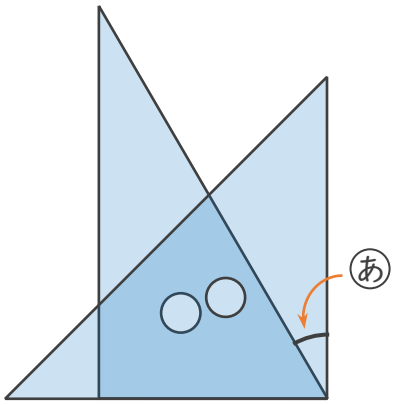

式： 90° − 60° ＝ 30°

答え（ 30° ）

②

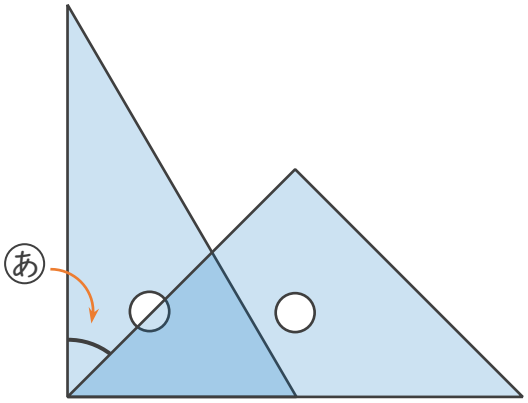

式： 90° − 45° ＝ 45°

答え（ 45° ）

③

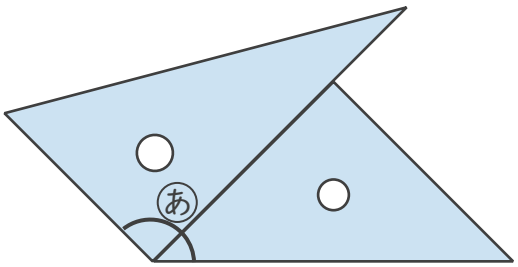

式： 90° ＋ 45° ＝ 135°

答え（ 135° ）

④

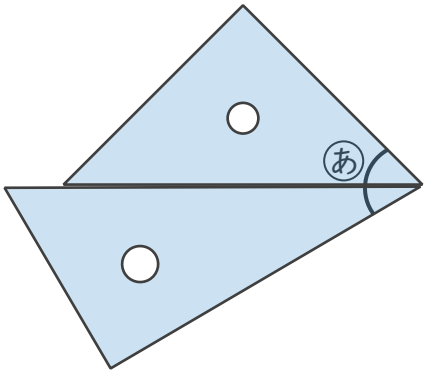

式： 45° ＋ 30° ＝ 75°

答え（ 75° ）

すらすらぷりんと