角の大きさ 4

◎ 分度器で角度をはかる
（分度器より短い角）

15

めざせ75点！

てん

名まえ

・次の角度をくふうしてはかりましょう。　（各25点）

①

答え（　　）

②

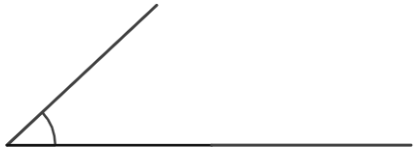

答え（　　）

③

答え（　　）

④



答え（　　）

すらすらぷりんと

角の大きさ 4

◎ 分度器で角度をはかる
（分度器より短い角）

15

めざせ75点！

てん

名まえ

・次の角度をくふうしてはかりましょう。　（各25点）

①

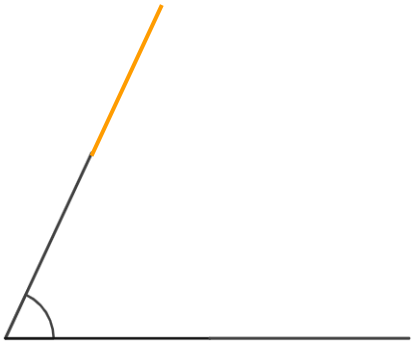

答え（　65°　）

②

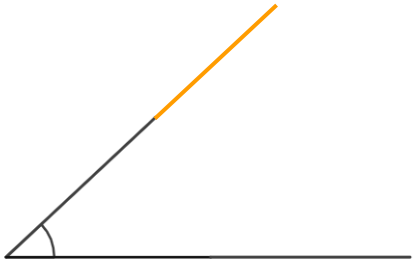

答え（　43°　）

③

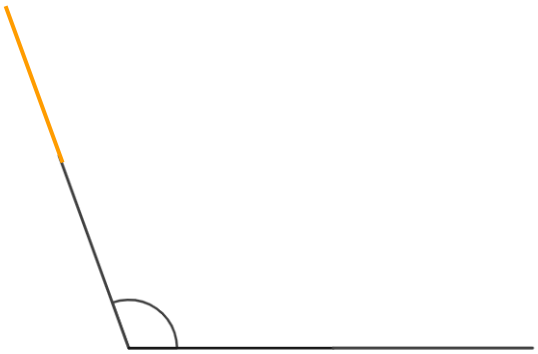

答え（　110°　）

④



答え（　15°　）

すらすらぷりんと