角の大きさ 2

◎ 分度器で角度をはかる（反時計回り）

15

めざせ75点！　てん

名まえ

・分度器（ぶんどき）を使って角度をはかりましょう。（各25点）

①

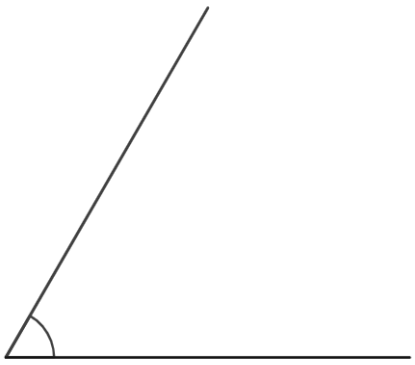

答え（　　）

②

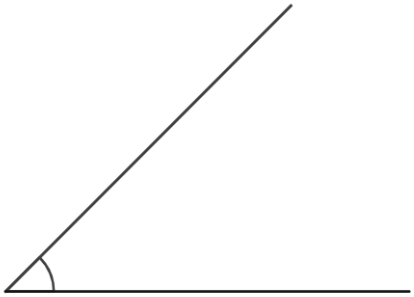

答え（　　）

③

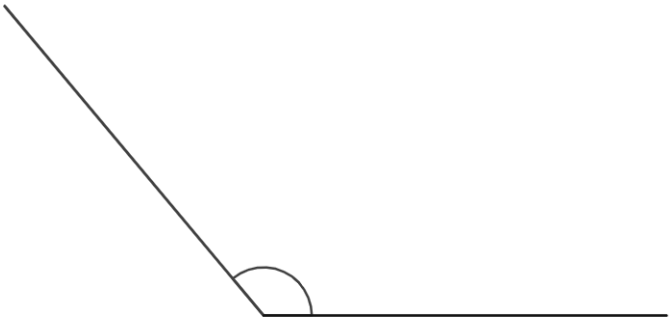

答え（　　）

④

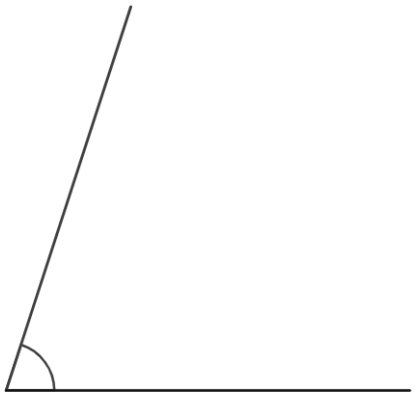

答え（　　）

すらすらぷりんと

角の大きさ 2

◎ 分度器で角度をはかる（反時計回り）

15

めざせ75点！　てん

名まえ

・分度器（ぶんどき）を使って角度をはかりましょう。（各25点）

①

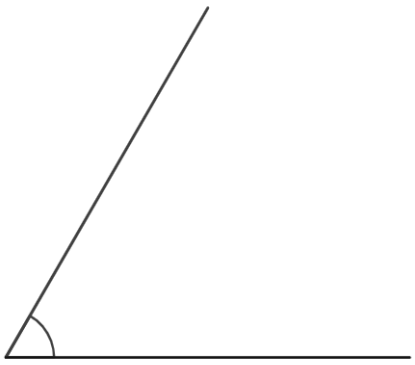

答え（　60°　）

②

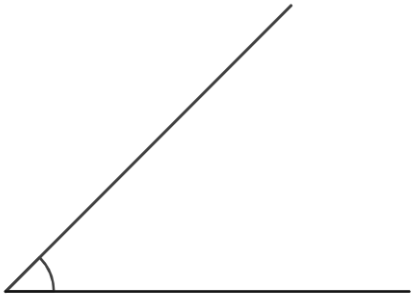

答え（　45°　）

③

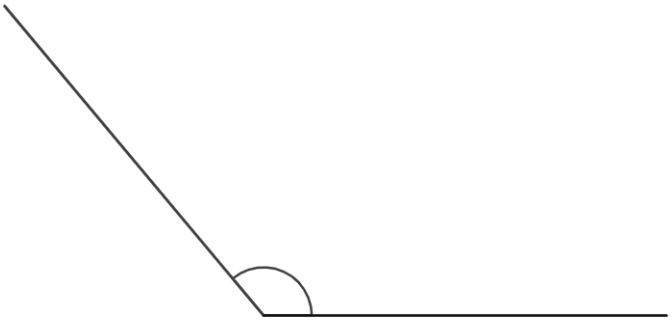

答え（　130°　）

④

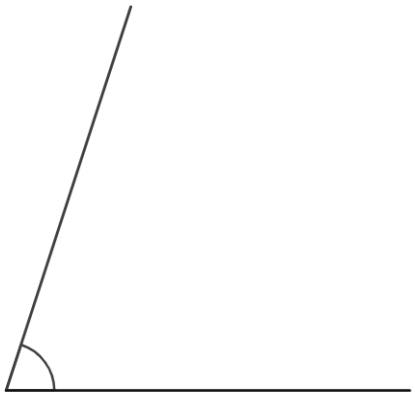

答え（　72°　）

すらすらぷりんと