直方体や立方体 II　15

◎ 展開図と平行・垂直

目指せ80点！　てん

名まえ

1　下の 立方体の展開図を組み立てます。

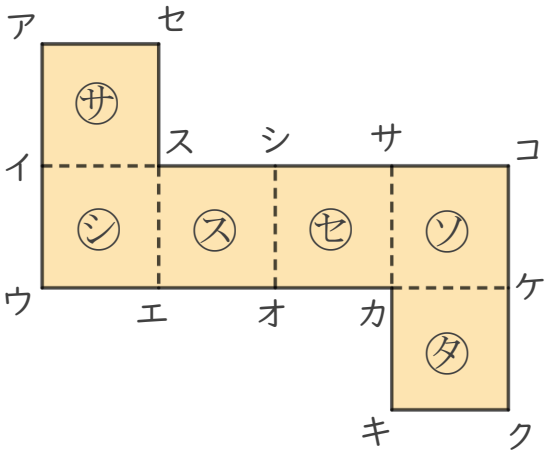

① 面㋜に平行な面はどれですか。（20点）

答え

② 面㋚に垂直な面はどれですか。（20点）

答え

③ 辺サカに垂直な面はどれですか。（20点）

答え

2　面と面の関係について調べましょう。

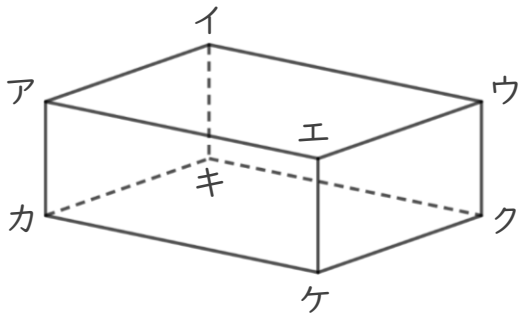

① 面エウクケと垂直な面を全部書きましょう。（20点）

答え

② 面イウエアと平行な面を書きましょう。（20点）

答え

すらすらぷりんと

直方体や立方体 II　15

◎ 展開図と平行・垂直

目指せ80点！　てん

名まえ

1　下の 立方体の展開図を組み立てます。

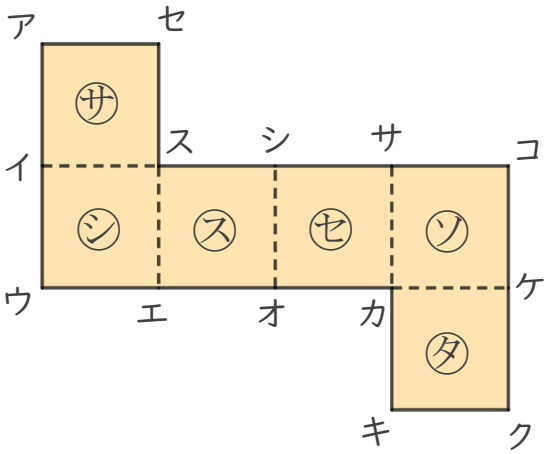

① 面㋜に平行な面はどれですか。(20点)

答え　面㋞

② 面㋚に垂直な面はどれですか。(20点)

答え　面㋛，面㋜，面㋝，面㋞

③ 辺サカに垂直な面はどれですか。(20点)

答え　面㋚，面㋟

2　面と面の関係について調べましょう。

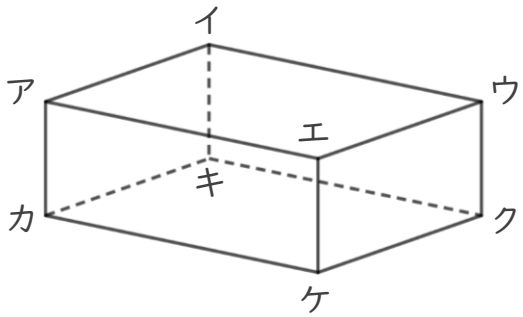

① 面エウクケと垂直な面を全部書きましょう。(20点)

答え　面イアエウ，面アカエケ，面キカケク，面イキクウ

② 面イウエアと平行な面を書きましょう。(20点)

答え　面キクケカ

すらすらぷりんと