角の大きさ 7

◎ 180° から
引いて求める角度

15

めざせ75点！

てん

名まえ

・ ㋐ の角度を、計算で求めましょう。（各25点）

①

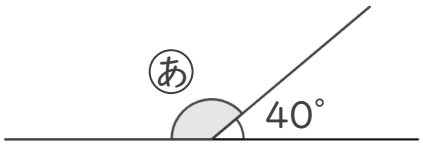

式：　　答え（　　）

②

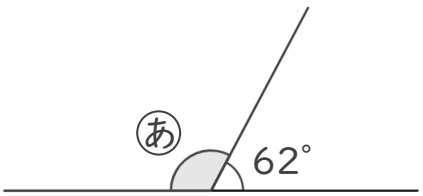

式：　　答え（　　）

③

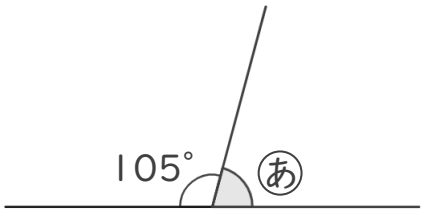

式：　　答え（　　）

④

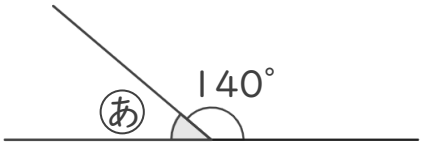

式：　　答え（　　）

すらすらぷりんと

角の大きさ 7

◎ 180° から
引いて求める角度

15

めざせ75点！　　てん

名まえ

・ ㋐ の角度を、計算で求めましょう。（各25点）

①

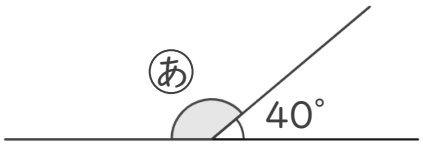

式： 180° − 40° ＝ 140°　　答え（ 140° ）

②

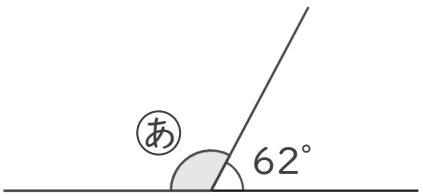

式： 180° − 62° ＝ 118°　　答え（ 118° ）

③

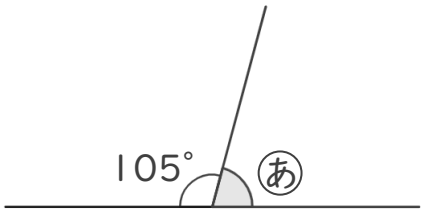

式： 180° − 105° ＝ 75°　　答え（ 75° ）

④

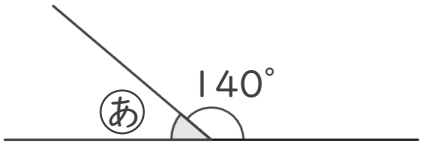

式： 180° − 140° ＝ 40°　　答え（ 40° ）

すらすらぷりんと