角の大きさ 9

◎ 360° から
引いて求める角度

15

めざせ75点！　　てん

名まえ

・ ㋐ の角度を、計算で求めましょう。（各25点）

①

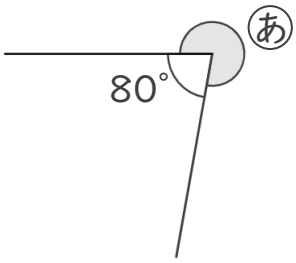

式：　　答え（　　）

②

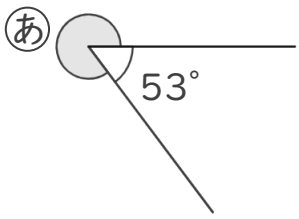

式：　　答え（　　）

③

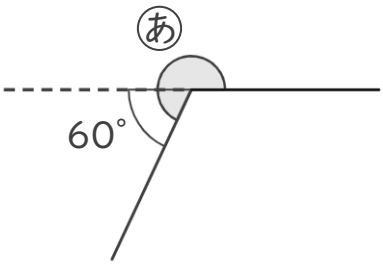

式：　　答え（　　）

④

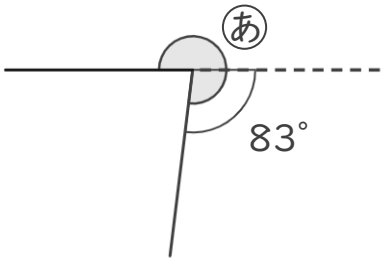

式：　　答え（　　）

すらすらぷりんと

角の大きさ 9

◎ 360° から
引いて求める角度

15

めざせ75点！ てん

名まえ

・ ㋐ の角度を、計算で求めましょう。（各25点）

①

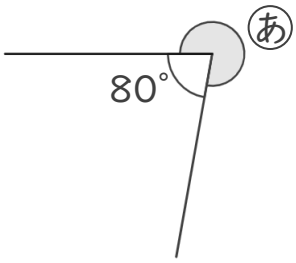

式： 360° − 80° ＝ 280°　　答え（ 280° ）

②

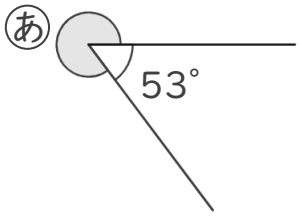

式： 360° − 53° ＝ 307°　　答え（ 307° ）

③

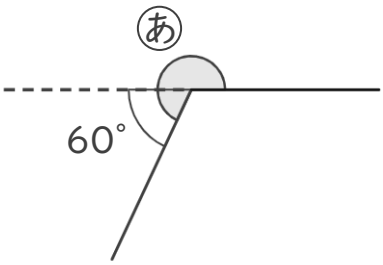

式： 180° ＋ 60° ＝ 240°　　答え（ 240° ）

④

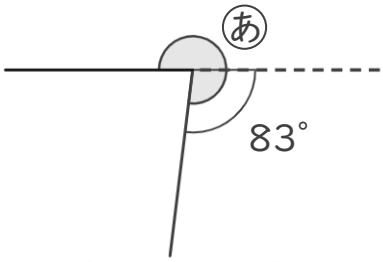

式： 180° ＋ 83° ＝ 263°　　答え（ 263° ）

すらすらぷりんと