面積のはかり方と表し方 2　16

◎ マス目の数で広さくらべ

目指せ80点！

てん

名まえ

・次の図形は１マスが１cm² です。次の問いに答えましょう。

㋐

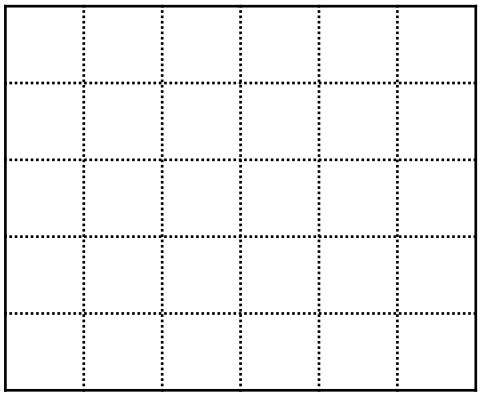

㋑

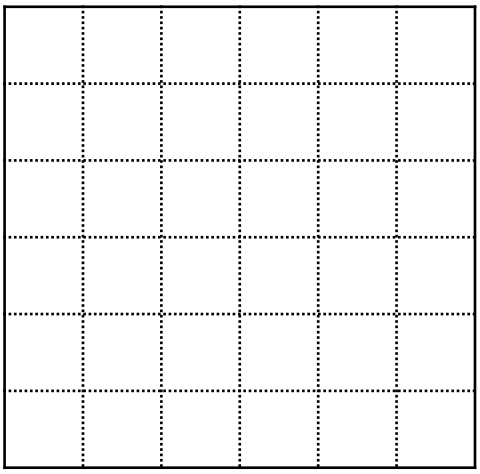

① 図形はそれぞれ何マスですか。（各20点）

㋐：　　㋑：

② 図形はそれぞれ何cm² ですか。（各20点）

㋐：　　㋑：

③ どちらが広いでしょう。（20点）

答え：

すらすらぷりんと

面積のはかり方と表し方 2　16

◎ マス目の数で広さくらべ

目指せ80点！

てん

名まえ

・次の図形は１マスが１cm² です。次の問いに答えましょう。

㋐

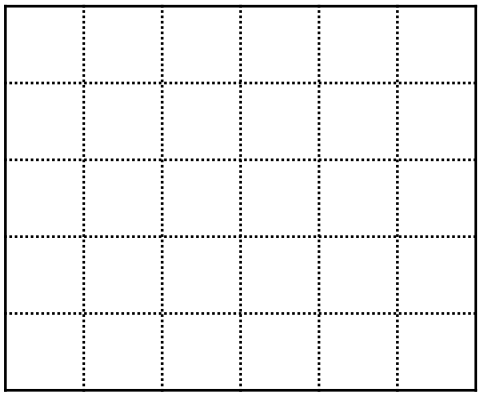

㋑

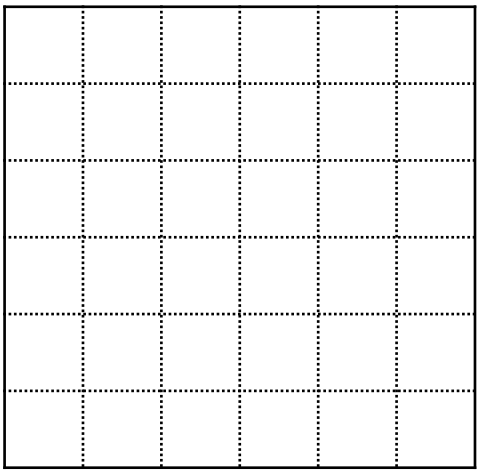

① 図形はそれぞれ何マスですか。（各20点）

㋐：　30　マス　㋑：　36　マス

② 図形はそれぞれ何cm² ですか。（各20点）

㋐：　30　cm²　㋑：　36　cm²

③ どちらが広いでしょう。（20点）

答え：　㋑

すらすらぷりんと