角の大きさ 17

◎ 三角形の作図
（一辺とその両たんの角）

16

めざせ100点！

てん

名まえ

1　じょうぎと分度器をつかって、下のような三角形をかきましょう。(50点)

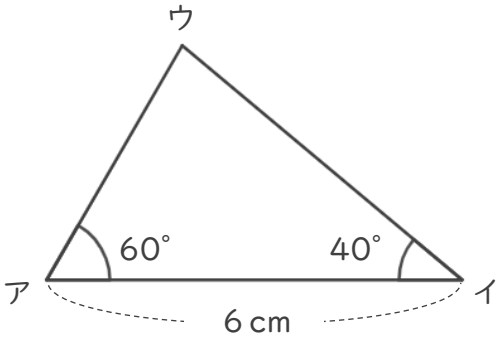

2　㋐，㋑ の角度はそれぞれ何度ですか。（各25点）

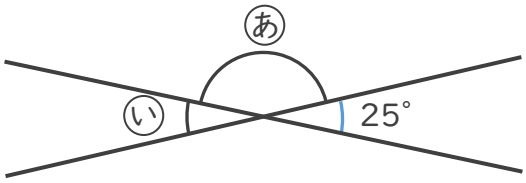

式：

㋐（　　）

㋑（　　）

すらすらぷりんと

角の大きさ 17

◎ 三角形の作図
（一辺とその両たんの角）

16

めざせ100点！ てん

名まえ

1　じょうぎと分度器をつかって、下のような三角形をかきましょう。(50点)

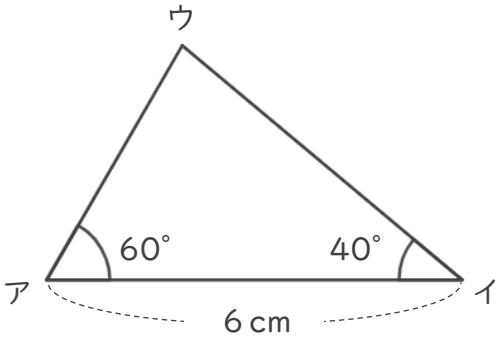

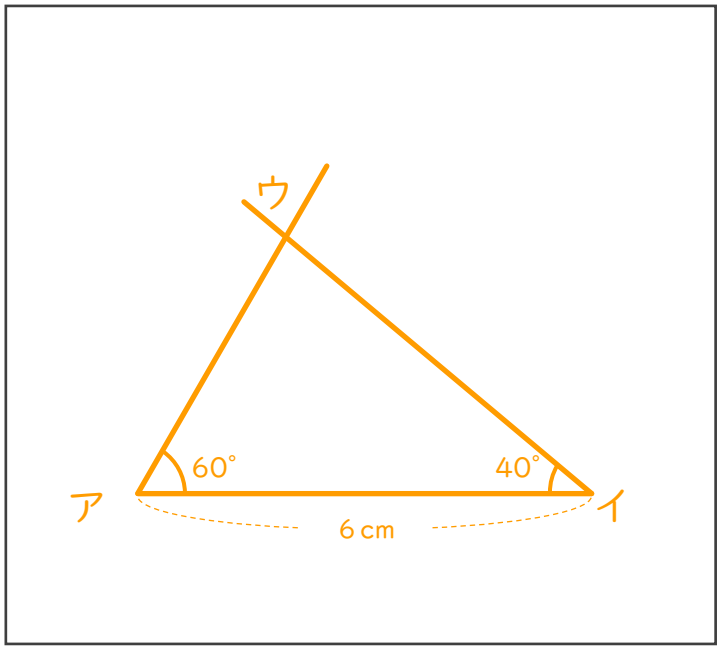

2　あ，い の角度はそれぞれ何度ですか。（各25点）

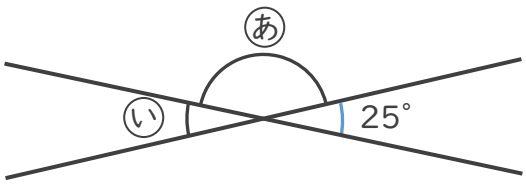

式：　あ の角度は、

180° − 25° = 145°

い の角度は、

180° − 145° = 25°

あ（　145°　）

い（　25°　）

すらすらぷりんと