角の大きさ 4

◎ 分度器で角度をはかる
（分度器より短い角）

16

めざせ75点！

てん

名まえ

・次の角度をくふうしてはかりましょう。　（各25点）

①

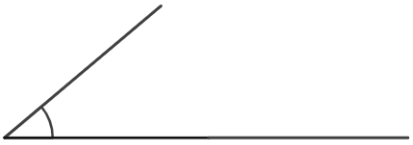

答え（　　）

②



答え（　　）

③

答え（　　）

④

答え（　　）

すらすらぷりんと

角の大きさ 4

◎ 分度器で角度をはかる
（分度器より短い角）

16

めざせ75点！　　てん

名まえ

・次の角度をくふうしてはかりましょう。　（各25点）

①

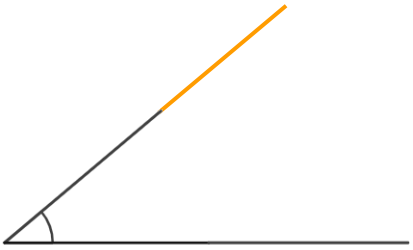

答え（　40°　）

②

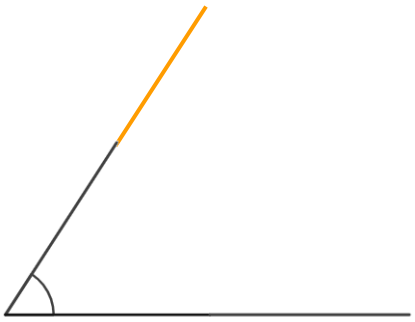

答え（　57°　）

③

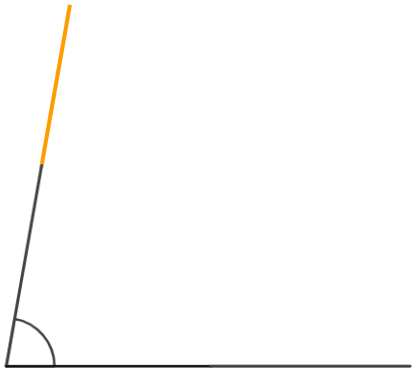

答え（　80°　）

④

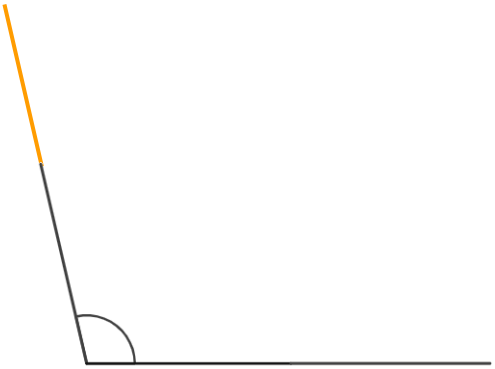

答え（　103°　）

すらすらぷりんと