角の大きさ 10

◉ 反時計回りの角の作図

16

めざせ75点！　　てん

名まえ

1　次の角をかきましょう。（各25点）

① 45°

② 120°

45°

120°

2　あの角度を、計算で求めましょう。（各25点）

①

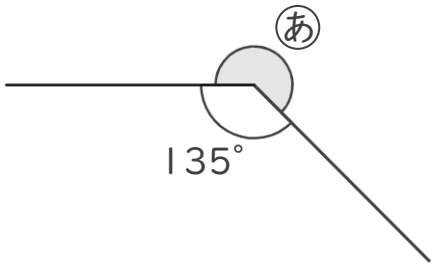

式：　　答え（　　）

②

式：　　答え（　　）

すらすらぷりんと

角の大きさ 10

◉ 反時計回りの角の作図

16

めざせ75点！　　てん

名まえ

1　次の角をかきましょう。（各25点）

① 45°

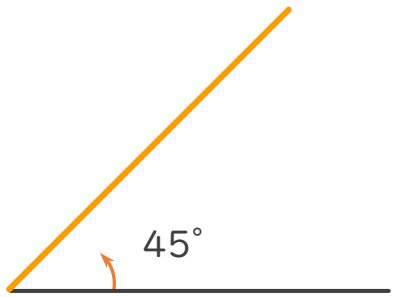

② 120°

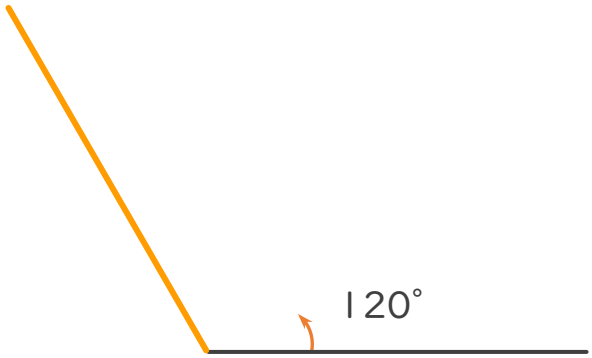

2　あの角度を、計算で求めましょう。（各25点）

①

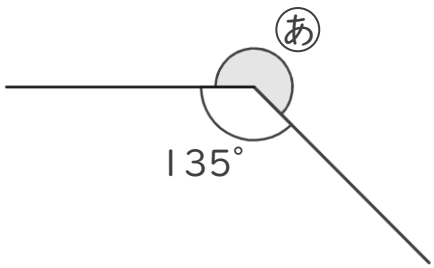

式：360° − 37° ＝ 323°　　答え（ 323° ）

②

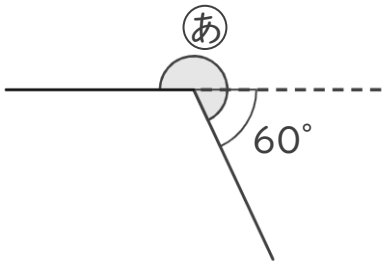

式：360° − 60° ＝ 300°　　答え（ 300° ）

すらすらぷりんと