角の大きさ 7

◎ 180° から
引いて求める角度

16

めざせ75点！

てん

名まえ

・ ㋐ の角度を、計算で求めましょう。（各25点）

①

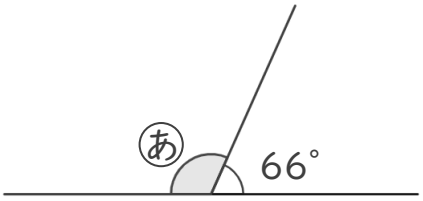

式：　　答え（　　）

②

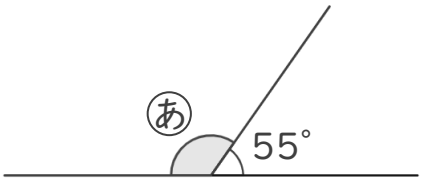

式：　　答え（　　）

③

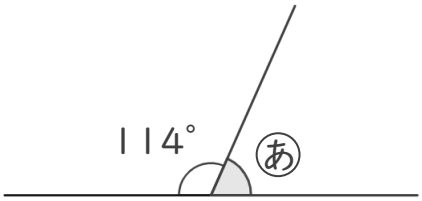

式：　　答え（　　）

④

式：　　答え（　　）

すらすらぷりんと

角の大きさ 7

◎ 180° から
引いて求める角度

16

めざせ75点！　てん

名まえ

・ ㋐ の角度を、計算で求めましょう。（各25点）

①

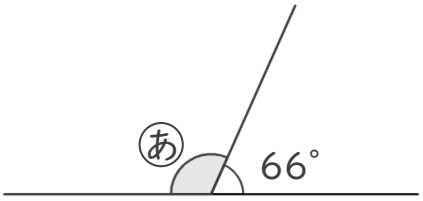

式： 180° − 66° ＝ 114°　　答え（ 114° ）

②

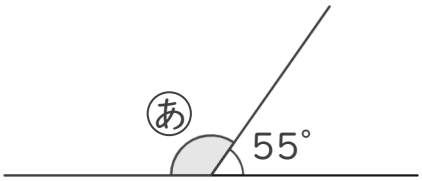

式： 180° − 55° ＝ 125°　　答え（ 125° ）

③

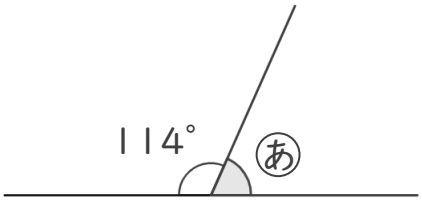

式： 180° − 114° ＝ 66°　　答え（ 66° ）

④

式： 180° − 127° ＝ 53°　　答え（ 53° ）

すらすらぷりんと