角の大きさ 8

◎ 180° に足して求める角度

16

めざせ75点！ てん

名まえ

・ ㋐ の角度を、計算で求めましょう。（各25点）

①

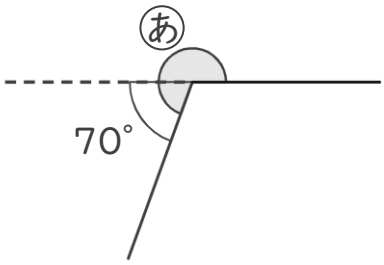

式：　　答え（　　）

②

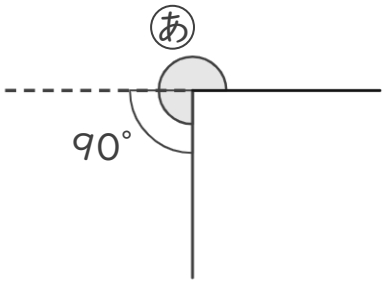

式：　　答え（　　）

③

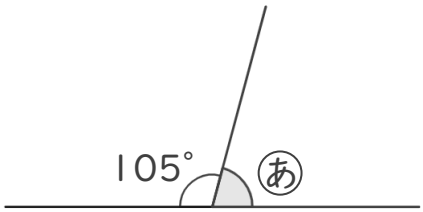

式：　　答え（　　）

④

式：　　答え（　　）

すらすらぷりんと

角の大きさ 8

◎ 180° に足して求める角度

16

めざせ75点！ てん

名まえ

・ ㋐ の角度を、計算で求めましょう。（各25点）

①

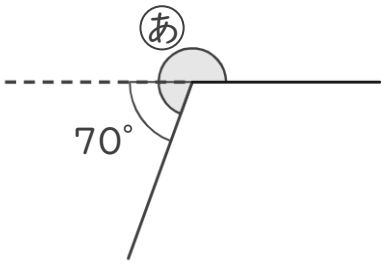

式： 180°＋ 70°＝ 250°　答え（ 250° ）

②

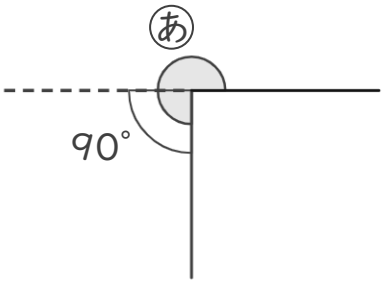

式： 180°＋ 90° ＝ 270°　答え（ 270° ）

③

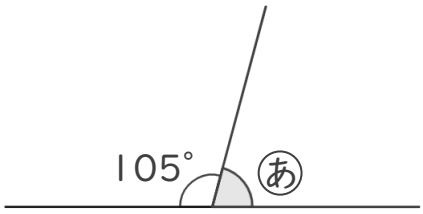

式： 180°－ 105° ＝ 75°　答え（ 75° ）

④

式： 180°－ 151° ＝ 29°　答え（ 29° ）

すらすらぷりんと