角の大きさ 9

◎ 360° から
引いて求める角度

16

めざせ75点！

てん

名まえ

・ ㋐ の角度を、計算で求めましょう。（各25点）

①

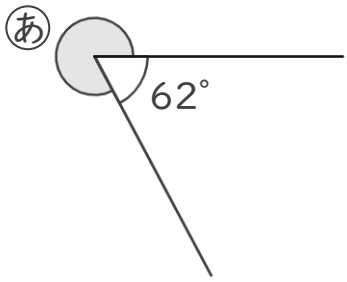

式：　　答え（　　）

②

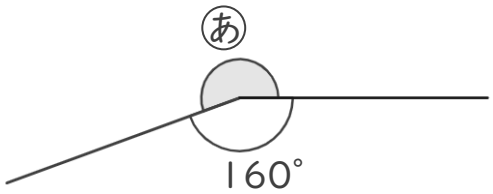

式：　　答え（　　）

③

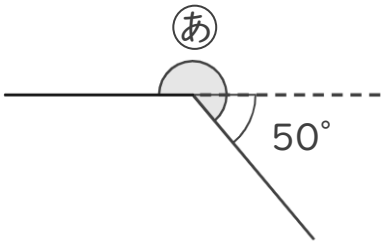

式：　　答え（　　）

④

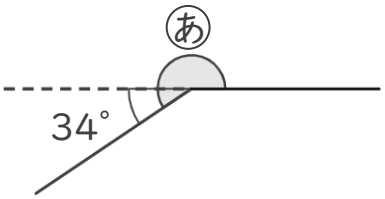

式：　　答え（　　）

すらすらぷりんと

角の大きさ 9

◎ 360° から
引いて求める角度

16

めざせ75点！ てん

名まえ

・ ㋐ の角度を、計算で求めましょう。（各25点）

①

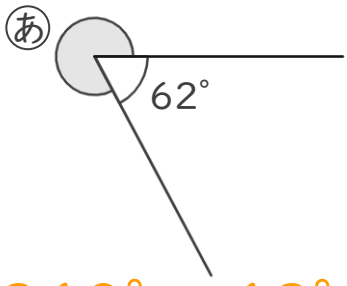

式： 360° − 62° ＝ 298°　答え（ 298° ）

②

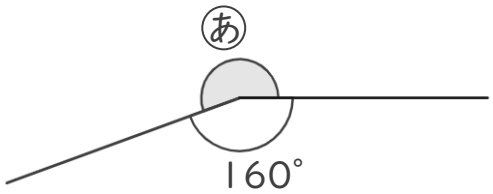

式： 360° − 160° ＝ 200°　答え（ 200° ）

③

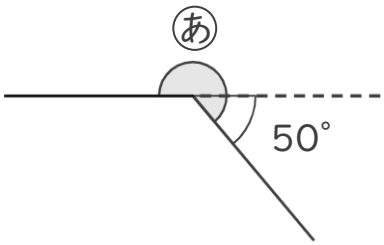

式： 180° ＋ 50° ＝ 230°　答え（ 230° ）

④

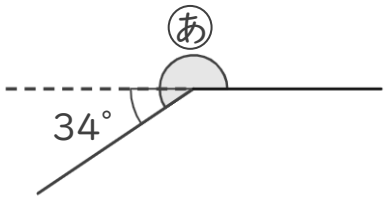

式： 180° ＋ 34° ＝ 214°　答え（ 214° ）

すらすらぷりんと