角の大きさ II

◉ 時計回りの角の作図

2

日にち：　　月　　日

名まえ

・次の角をかきましょう。

① 40°

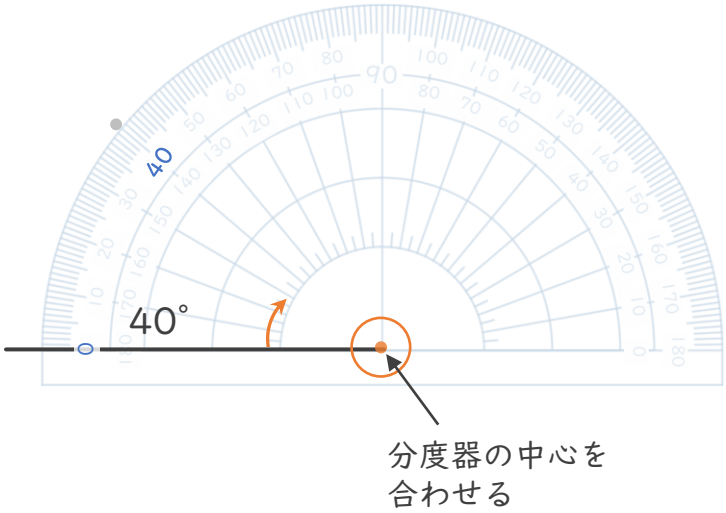

② 45°

③ 100°



すらすらぷりんと

角の大きさ II

◉ 時計回りの角の作図

2

日にち：　　月　　日

名まえ

・次の角をかきましょう。

① 40°

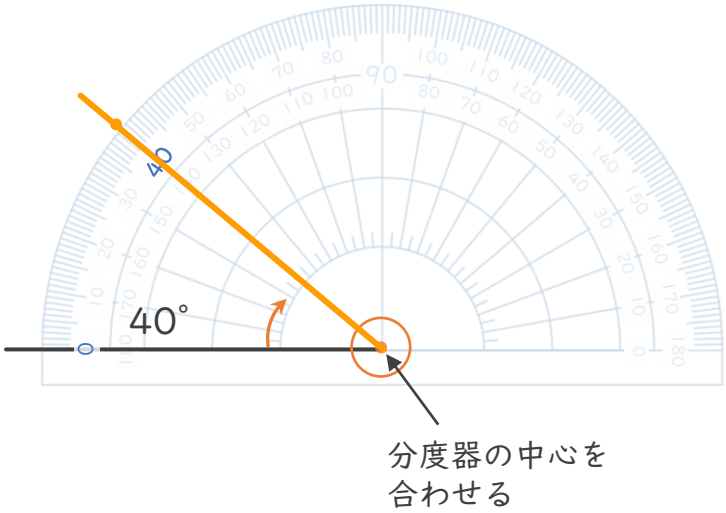

② 45°

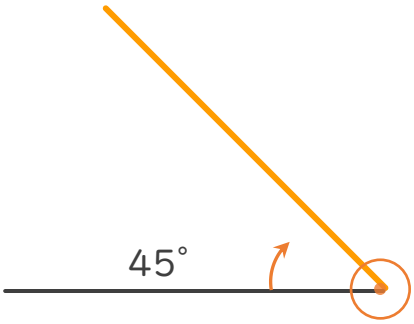

③ 100°

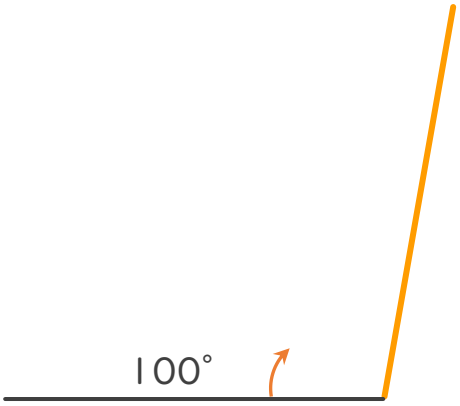

すらすらぷりんと