分数（分数の表し方）1 2

◎ 真分数・帯分数・仮分数とは

日にち：　　月　　日

名まえ

1　次の分数は、真分数（しんぶんすう）、仮分数（かぶんすう）、帯分数（たいぶんすう）のどれですか。
（うすい字はなぞろう）

① $\frac{9}{9}$　　② $\frac{3}{8}$　　③ $2\frac{4}{5}$

④ $\frac{10}{3}$　　⑤ $1\frac{2}{7}$　　⑥ $\frac{7}{2}$

答え：　① 仮分数　　② 真分数　　③

④　　⑤　　⑥

2　色をぬった部分の長さを、仮分数（かぶんすう）と帯分数（たいぶんすう）の両方で表しましょう
（うすい字はなぞろう）

①

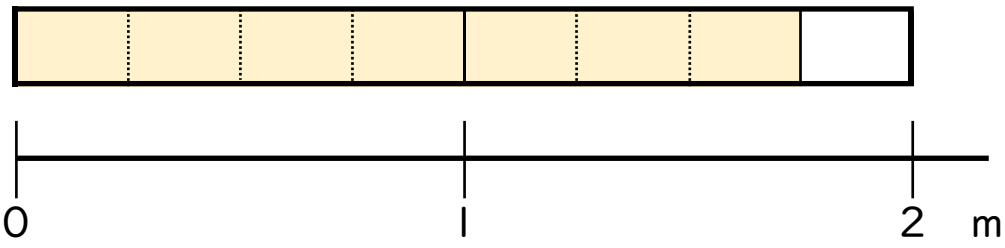

答え：　仮分数…　$\frac{7}{4}$　　帯分数…

②

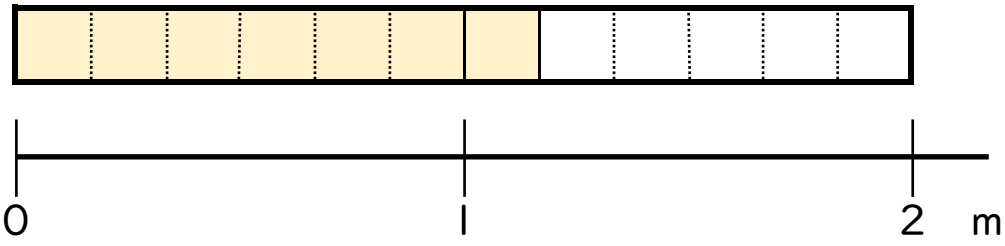

答え：　仮分数…　　帯分数…

すらすらぷりんと

分数（分数の表し方）1 2

◎ 真分数・帯分数・仮分数とは

日にち：　　月　　日

名まえ

1　次の分数は、真分数（しんぶんすう）、仮分数（かぶんすう）、帯分数（たいぶんすう）のどれですか。
（うすい字はなぞろう）

① $\frac{9}{9}$　　② $\frac{3}{8}$　　③ $2\frac{4}{5}$

④ $\frac{10}{3}$　　⑤ $1\frac{2}{7}$　　⑥ $\frac{7}{2}$

答え：　① 仮分数　② 真分数　③ 帯分数

④ 仮分数　⑤ 帯分数　⑥ 仮分数

2　色をぬった部分の長さを、仮分数（かぶんすう）と帯分数（たいぶんすう）の両方で表しましょう
（うすい字はなぞろう）

①

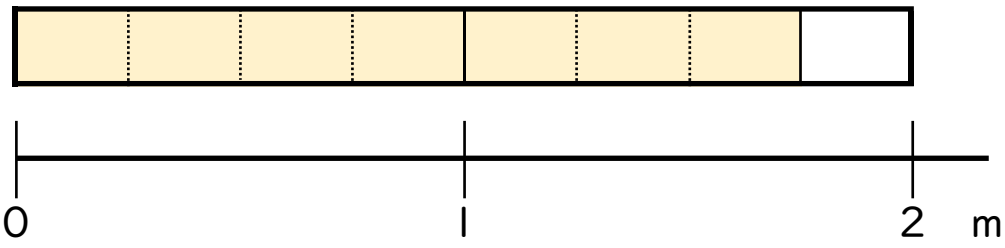

答え：　仮分数…　$\frac{7}{4}$　　帯分数…　$1\frac{3}{4}$

②

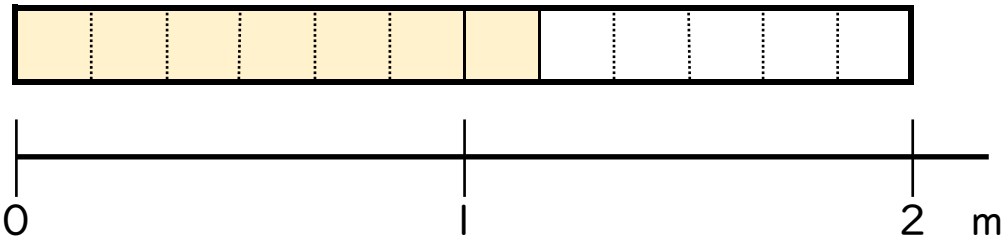

答え：　仮分数…　$\frac{7}{6}$　　帯分数…　$1\frac{1}{6}$

すらすらぷりんと