直方体や立方体 1 2

◎ 箱の形の特ちょう

日にち：　　月　　日

名まえ

・ 次の㋒～㋗の箱の形を、形の特ちょうに注目して、
㋐のなかまと、㋑のなかまに分けてみましょう。

（うすい字はなぞりましょう。）

㋐

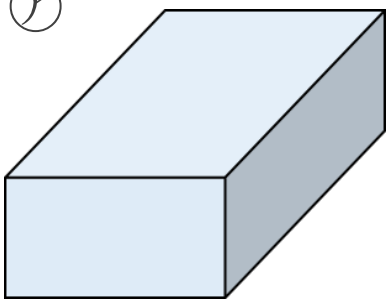

㋑

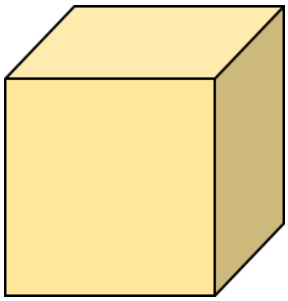

面の形に注目しよう！

㋒

㋓



㋔

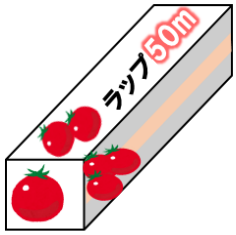

㋕

㋖

㋗

㋐のなかま…　　，

㋐は面の形に長方形があるね！

㋑のなかま…　　，

㋑は面の形が全部正方形だね！

すらすらぷりんと

直方体や立方体 1 2

◎ 箱の形の特ちょう

日にち：　　月　　日

名まえ

・ 次の㋒～㋖の箱の形を、形の特ちょうに注目して、
㋐のなかまと、㋑のなかまに分けてみましょう。

（うすい字はなぞりましょう。）

㋐

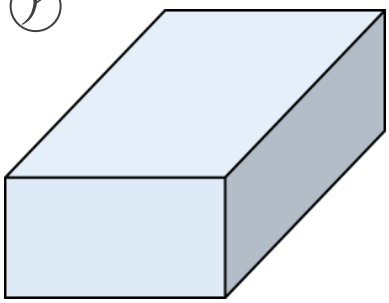

㋑

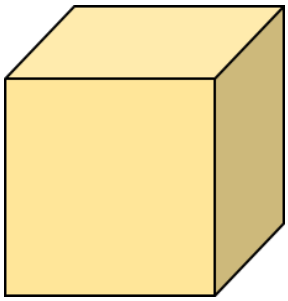

面の形に注目しよう！

㋒

㋓



㋔

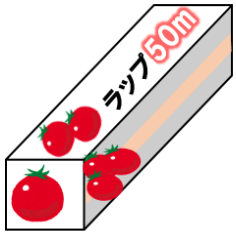

㋕

㋖

㋗

㋐のなかま…　㋓，㋔

㋐は面の形に長方形があるね！

㋑のなかま…　㋖，㋗

㋑は面の形が全部正方形だね！

すらすらぷりんと