角の大きさ 12

◎ 180°をこえる角の作図

2

日にち：　　月　　日

名まえ

210°の角をかきましょう。（うすい線はなぞりましょう。）

＜かきかた＞

① 始まりの直線の続きをかく

② 210°－ 180°＝ 30°

だから、

①の直線から30°のところに線をひく

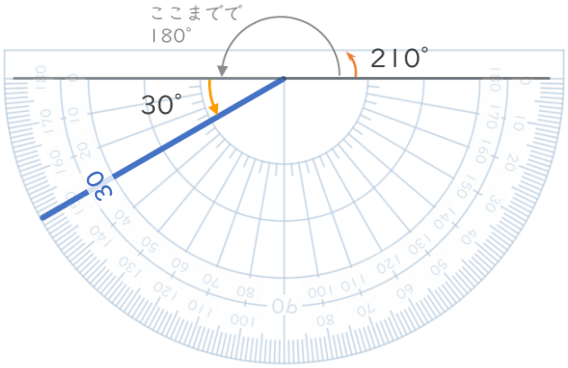

③ 210°の角にしるしをつける

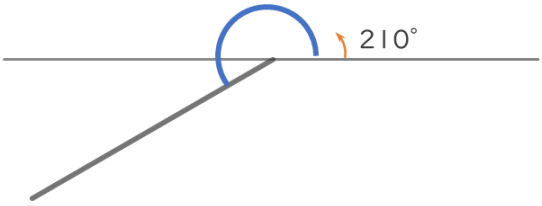

すらすらぷりんと

角の大きさ 12

◎ 180°をこえる角の作図

2

日にち：　　月　　日

名まえ

210°の角をかきましょう。（うすい線はなぞりましょう。）

＜かきかた＞

① 始まりの直線の続きをかく

② 210°－ 180°＝ 30°

だから、

①の直線から30°のところに線をひく

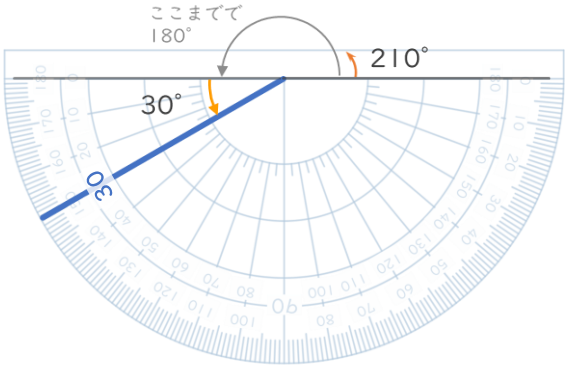

③ 210°の角にしるしをつける

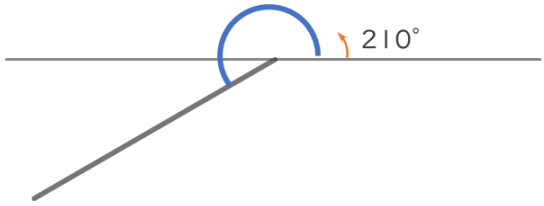

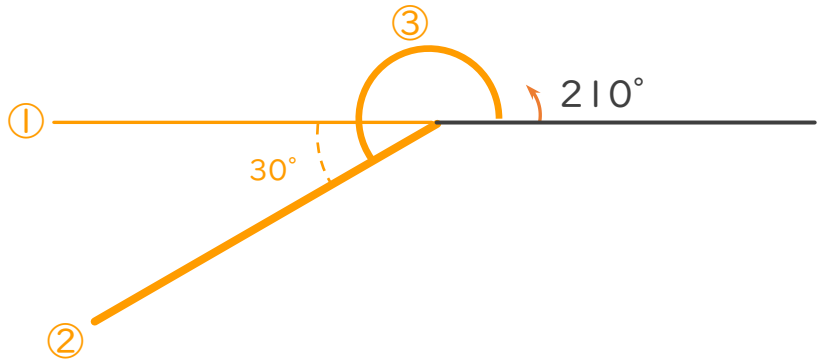

すらすらぷりんと