# 角の大きさ 16

◎ 交わる２直線の向かい合う角

3

日にち：　　月　　日

名まえ

・ ㋐, ㋑ の角度はそれぞれ何度ですか。計算で求めましょう。
（うすい字はなぞりましょう。）

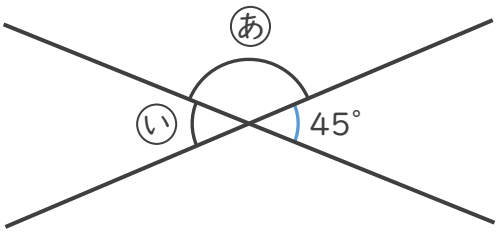


① ㋐の角度を求めましょう。

式：180° − 45° =

答え（　　）

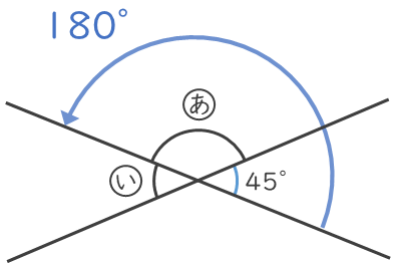


直線の角度は180°だから…

② ㋑の角度を求めましょう。

式：

答え（　　）

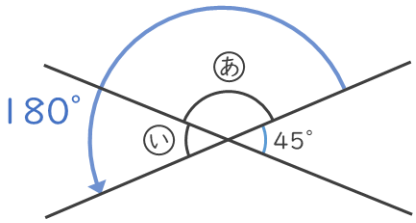


2本の直線が交わってできる、向かいあった角は同じ大きさになるよ！



すらすらぷりんと

# 角の大きさ 16

◎ 交わる２直線の向かい合う角

3

日にち：　　月　　日

名まえ

・ ㋐, ㋑ の角度はそれぞれ何度ですか。計算で求めましょう。
（うすい字はなぞりましょう。）

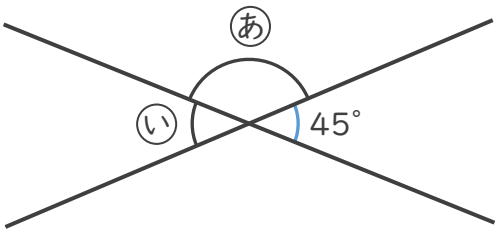


① ㋐の角度を求めましょう。

式：180° − 45° = 135°

答え（　135°　）

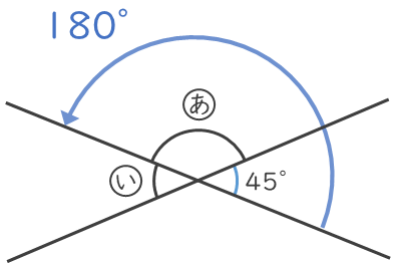


直線の角度は180°　だから…

② ㋑の角度を求めましょう。

式：180° − 135° = 45°

答え（　45°　）

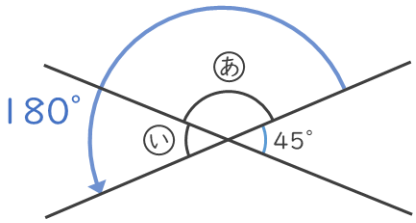


2本の直線が交わってできる、向かいあった角は同じ大きさになるよ！



すらすらぷりんと