面積のはかり方と表し方 9 3

◎ 平方キロメートルの面積

日にち：　　月　　日

名まえ

・次の問いに答えましょう。

1　たて２km、横６kmの浮島の面積は、何km² でしょう。

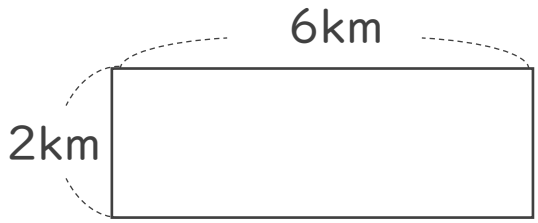

式：

答え：

2　次の図形の面積を求めましょう。

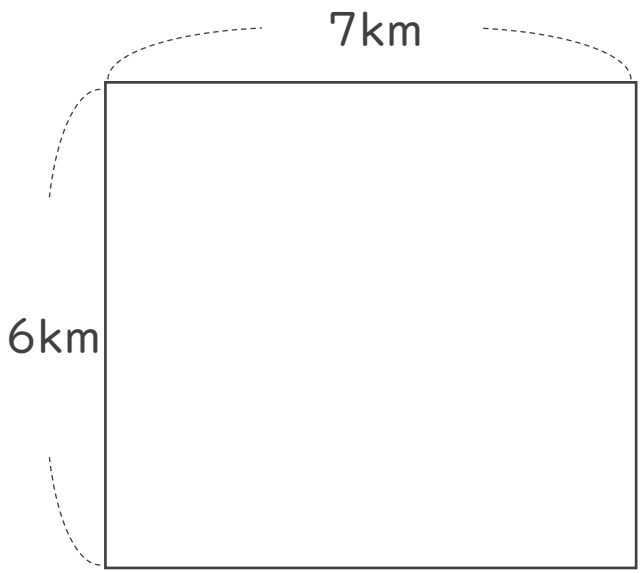

式：

答え：

すらすらぷりんと

面積の
はかり方と表し方 9 3
◎ 平方キロメートルの面積

日にち：　　月　　日

名まえ

・次の問いに答えましょう。

1　たて２km、横６kmの浮島の面積は、何km² でしょう。

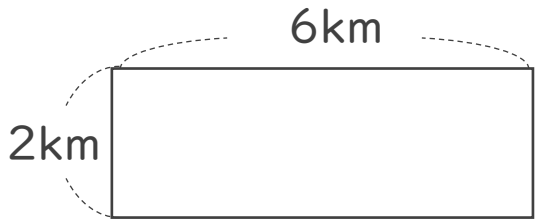

式：２×６　＝　12

答え：　12　km²

2　次の図形の面積を求めましょう。

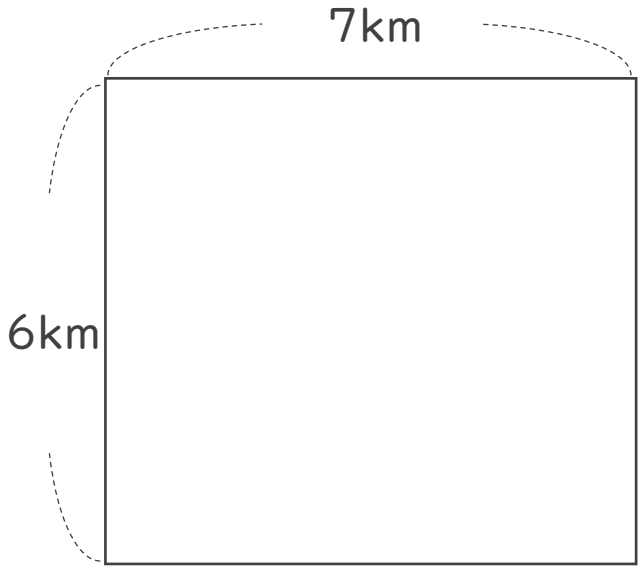

式：６×７　＝　42

答え：　42　km²

すらすらぷりんと