角の大きさ II

◉ 時計回りの角の作図

3

日にち：　　月　　日

名まえ

・次の角をかきましょう。

① 60°

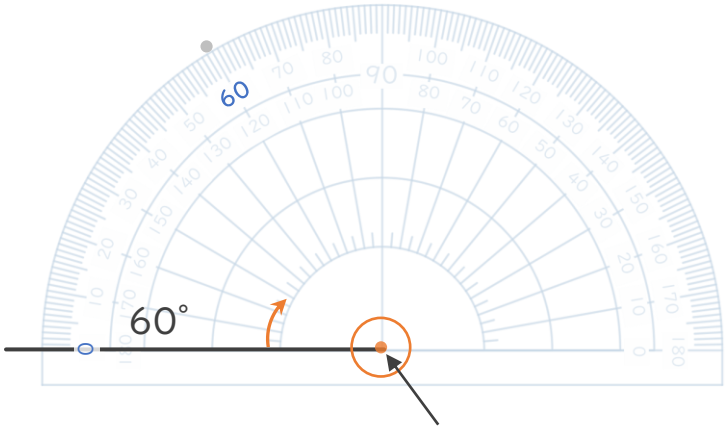

分度器の中心を
合わせる

② 75°

③ 150°



すらすらぷりんと

角の大きさ II

◉ 時計回りの角の作図

3

日にち：　　月　　日

名まえ

・次の角をかきましょう。

① 60°

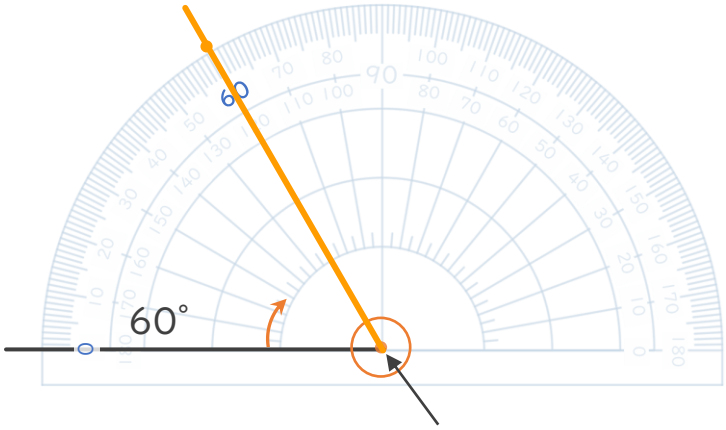

分度器の中心を
合わせる

② 75°

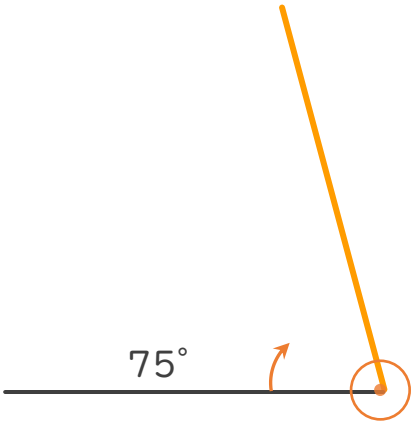

③ 150°

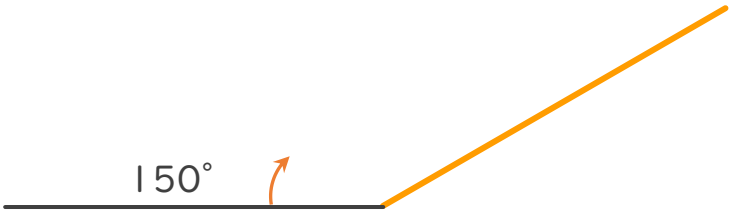

すらすらぷりんと