角の大きさ 5

◎ 直角・半回転・1回転の角度

3

日にち：　　月　　日

名まえ

・□にあてはまる数をかきましょう。（うすい字はなぞりましょう。）

① 1直角 ＝ □°

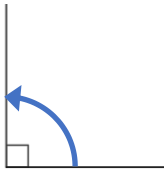

② 2 直角 ＝ □°　・・・半回転の角度

③ □ 直角 ＝ □°

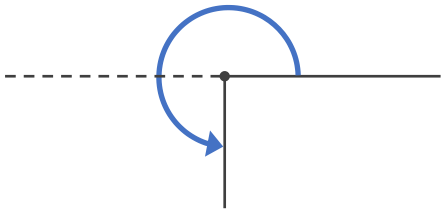

④ □ 直角 ＝ □°　・・・1回転の角度

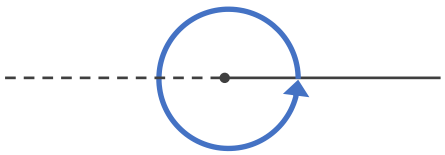

すらすらぷりんと

角の大きさ 5

◎ 直角・半回転・1回転の角度

3

日にち：　　月　　日

名まえ

・□にあてはまる数をかきましょう。（うすい字はなぞりましょう。）

① 1直角 ＝ 90°

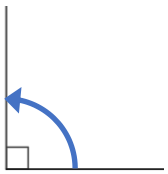

② 2 直角 ＝ 180° ・・・半回転の角度

③ 3 直角 ＝ 270°

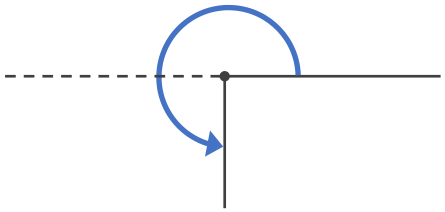

④ 4 直角 ＝ 360° ・・・1回転の角度

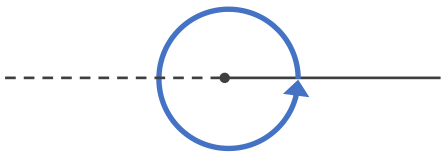

すらすらぷりんと