角の大きさ Ⅰ

◎ 角の大きさをくらべよう

3

日にち：　　月　　日

名まえ

・次の角の大きさをくらべて、大きい方の記号をかきましょう。

①

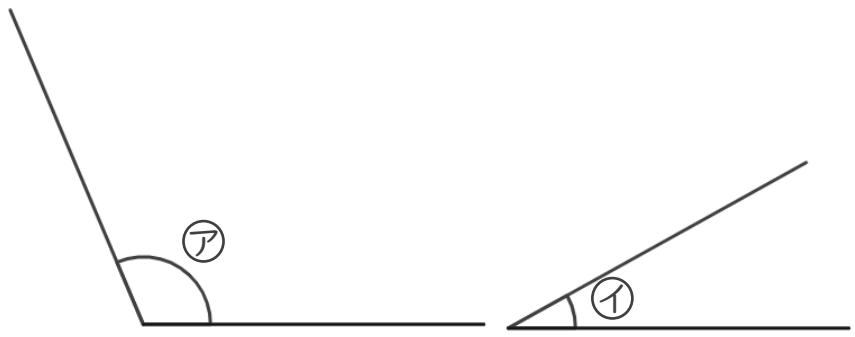

答え（　　）

②

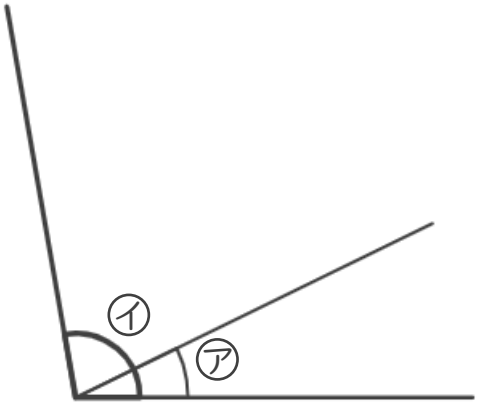

答え（　　）

③

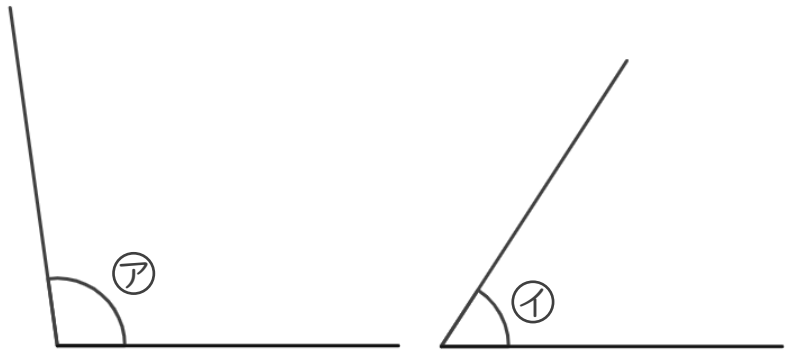

答え（　　）

すらすらぷりんと

角の大きさ Ⅰ

◎ 角の大きさをくらべよう

3

日にち：　　月　　日

名まえ

・次の角の大きさをくらべて、大きい方の記号をかきましょう。

①

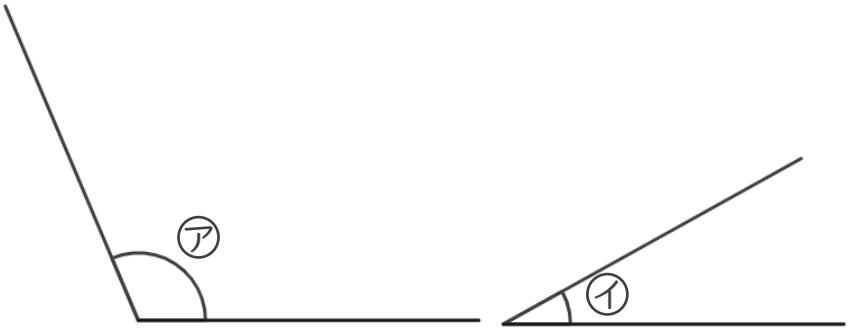

答え（　㋐　）

②

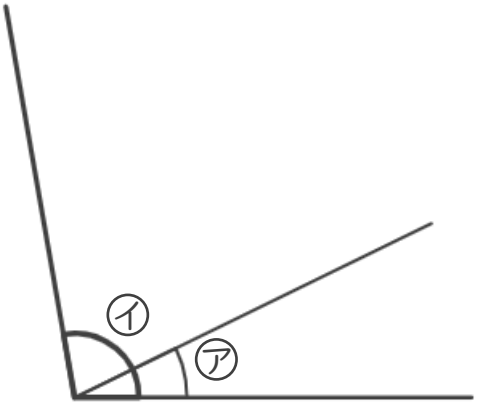

答え（　㋑　）

③

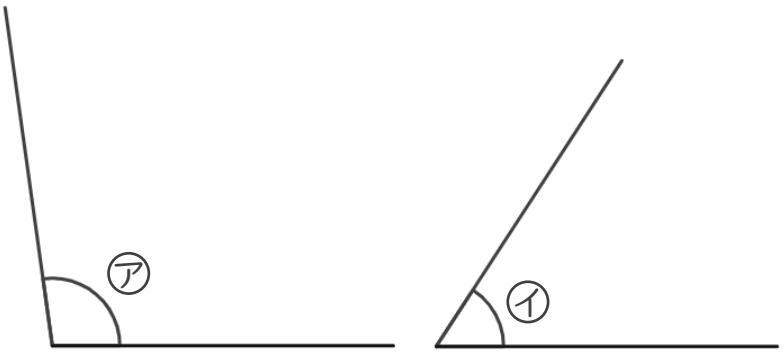

答え（　㋐　）

すらすらぷりんと