直方体や立方体 10

◎ 面と面の関係
（垂直と平行）

3

日にち：　　月　　日

名まえ

1　面と面の関係について調べましょう。（うすい字はなぞりましょう。）

面㋐と面㋑は**垂直**です。

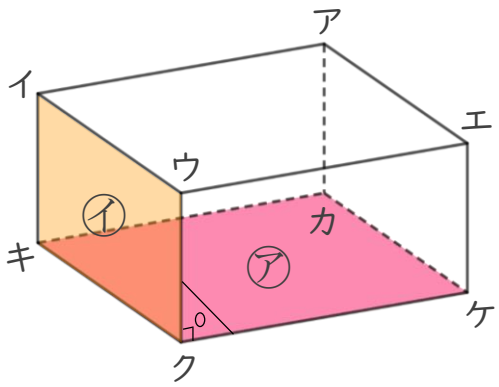

面㋑ ＝ **面イウクキ** だよ！

☆ 面㋐と垂直な面を全部書きましょう。

答え　面イウクキ　，　面　　，　　，

2　面と面の関係について調べましょう。

面㋐と面㋒は**平行**です。

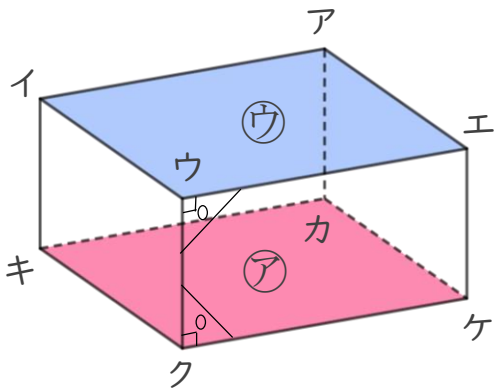

面㋐ ＝ **面カキクケ**

面㋒ ＝ **面アイウエ** だよ！

☆ 面イウクキと平行な面を書きましょう。

答え

すらすらぷりんと

直方体や立方体 10

◎ 面と面の関係
（垂直と平行）

3

日にち：　　月　　日

名まえ

1　面と面の関係について調べましょう。（うすい字はなぞりましょう。）

面㋐と面㋑は**垂直**です。

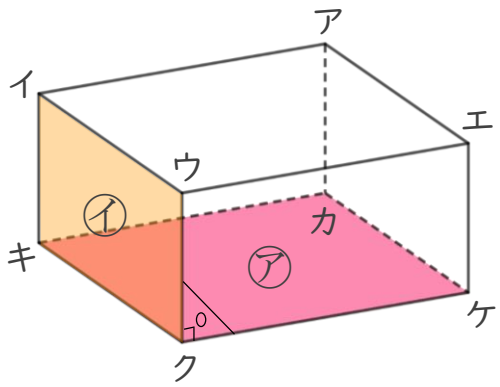

面㋑ ＝ **面イウクキ** だよ！

☆ 面㋐と垂直な面を全部書きましょう。

答え　面イウクキ，面ウエケク，面エアカケ，面アイキカ

2　面と面の関係について調べましょう。

面㋐と面㋒は**平行**です。

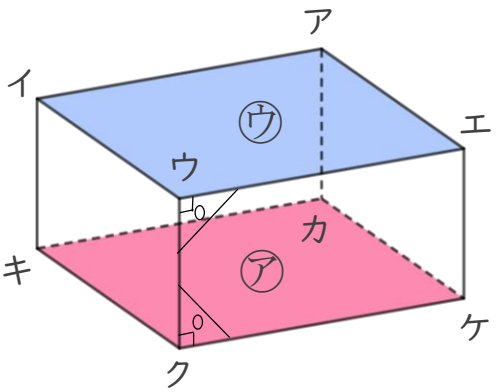

面㋐ ＝ **面カキクケ**

面㋒ ＝ **面アイウエ** だよ！

☆ 面イウクキと平行な面を書きましょう。

答え　面アエケカ

すらすらぷりんと