角の大きさ 16

◎ 交わる２直線の向かい合う角

4

日にち：　　月　　日

名まえ

・ ㋐, ㋑ の角度はそれぞれ何度ですか。計算で求めましょう。

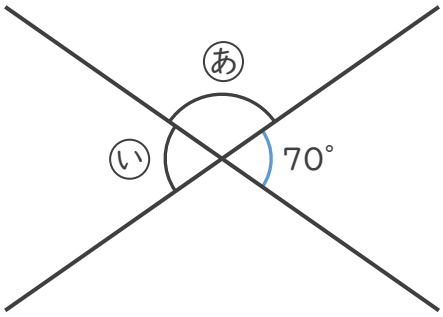

① ㋐の角度を求めましょう。

式：

答え（　　）

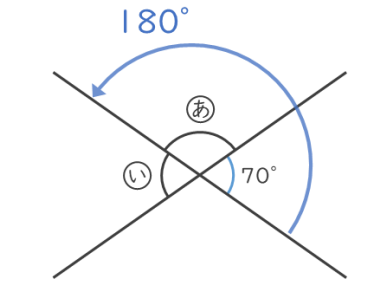

直線の角度は180°　だから…

② ㋑の角度を求めましょう。

式：

答え（　　）

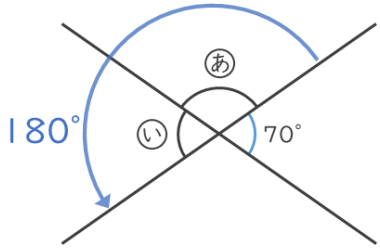

2本の直線が交わってできる、向かいあった角は同じ大きさになるよ！

すらすらぷりんと

角の大きさ 16

◎ 交わる２直線の向かい合う角

4

日にち：　　月　　日

名まえ

・ ㋐, ㋑ の角度はそれぞれ何度ですか。計算で求めましょう。

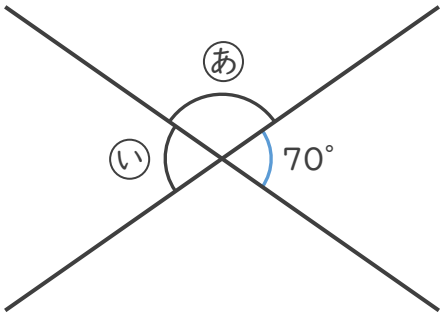

① ㋐の角度を求めましょう。

式：180° − 70° = 110°

答え（　110°　）

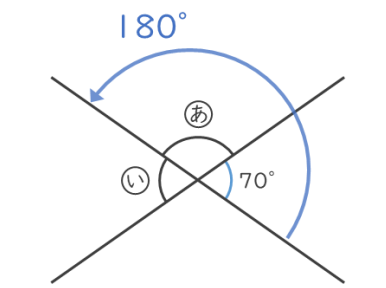

直線の角度は180°だから…

② ㋑の角度を求めましょう。

式：180° − 110° = 70°

答え（　70°　）

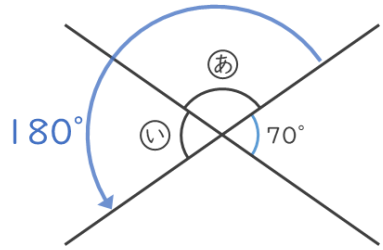

2本の直線が交わってできる、向かいあった角は同じ大きさになるよ！

すらすらぷりんと