わり算の筆算 32

◎ 商がたつ数を見つける

4

日にち：　　月　　日

名まえ

・ □ には数字が１こ入ります。
商が**十の位**からたつのは、□ がどんな数字のときですか。
（うすい字はなぞりましょう。）

①

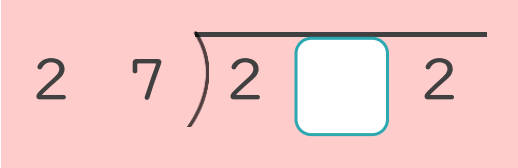

2□÷27ができる数を見つければいいね！

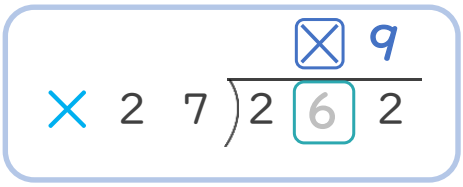

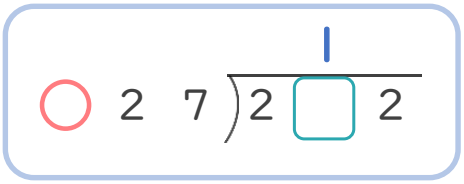

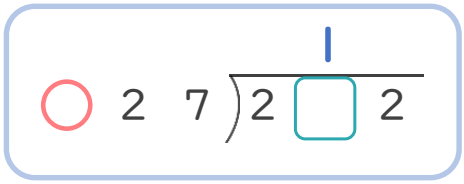

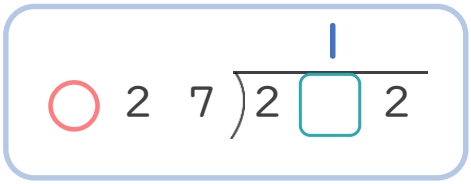

答え　　と　　と

②

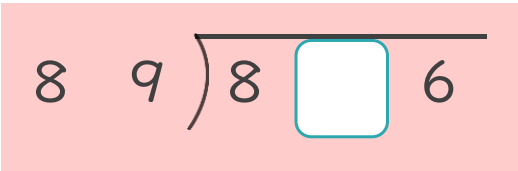

8□÷89ができる数を見つければいいね！

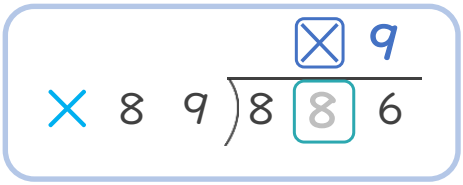

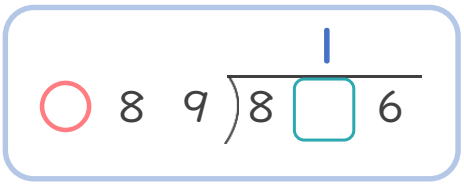

答え

すらすらぷりんと

わり算の筆算 32

◎ 商がたつ数を見つける

4

日にち：　　月　　日

名まえ

・ □ には数字が１こ入ります。
商が**十の位**からたつのは、□ がどんな数字のときですか。
（うすい字はなぞりましょう。）

① 2 7) 2 □ 2

2□÷27ができる数を見つければいいね！

× 2 7) 2 6 2　（6 に ☒ 9）

○ 2 7) 2 7 2　（7 に 1）

○ 2 7) 2 8 2　（8 に 1）

○ 2 7) 2 9 2　（9 に 1）

答え　7　と　8　と　9

② 8 9) 8 □ 6

8□÷89ができる数を見つければいいね！

× 8 9) 8 8 6　（8 に ☒ 9）

○ 8 9) 8 9 6　（9 に 1）

答え　9

すらすらぷりんと