# 直方体や立方体 6

◎ 展開図の書き方
（辺の長さから書く）

4

日にち：　　月　　日

名まえ

・ 次の立体の展開図を完成させましょう。　（うすい字はなぞりましょう。）

① たて　1cm
横　2cm
高さ　3cm　の直方体

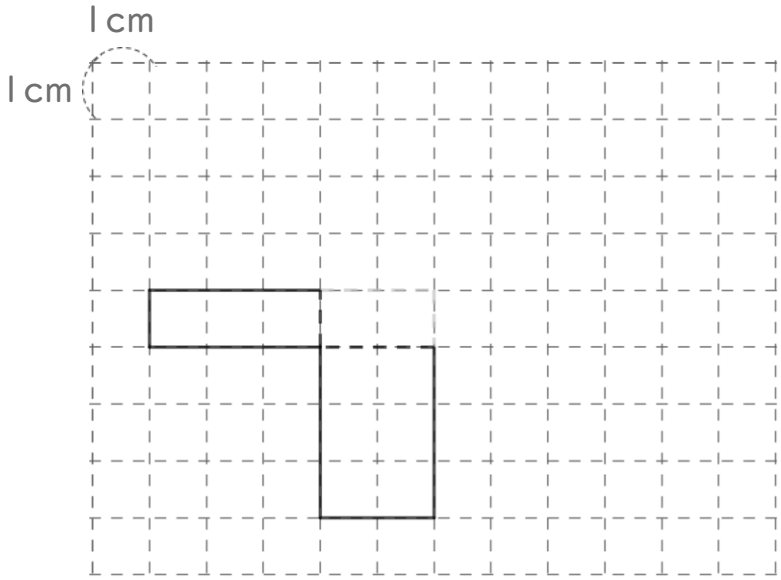


② 1辺 2cm の立方体

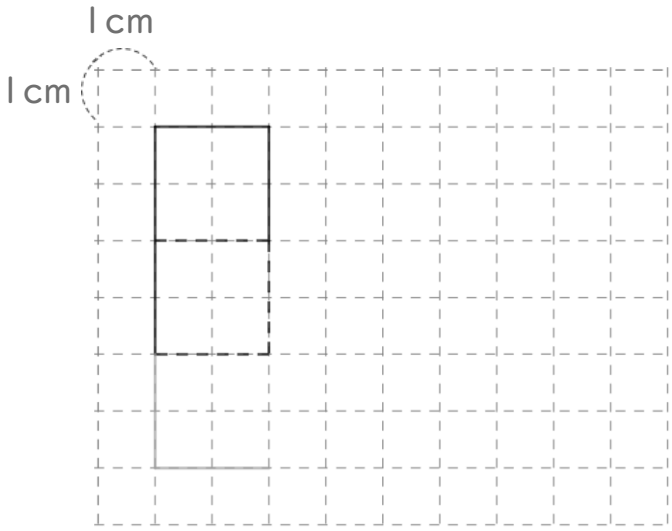


③ たて　1cm
横　2cm
高さ　1cm　の直方体

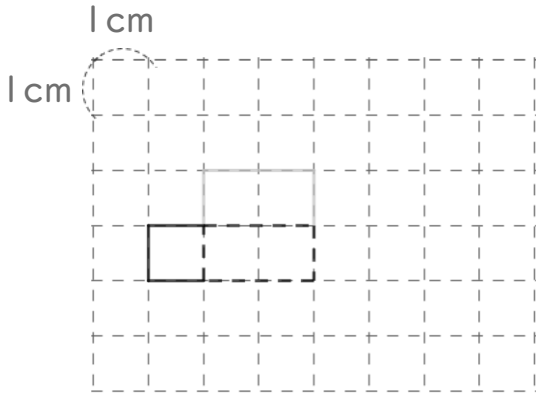




すらすらぷりんと

# 直方体や立方体 6

◎ 展開図の書き方
（辺の長さから書く）

4

日にち：　　月　　日

名まえ

・ 次の立体の展開図を完成させましょう。　（うすい字はなぞりましょう。）

① たて　1cm
横　2cm
高さ　3cm　の直方体

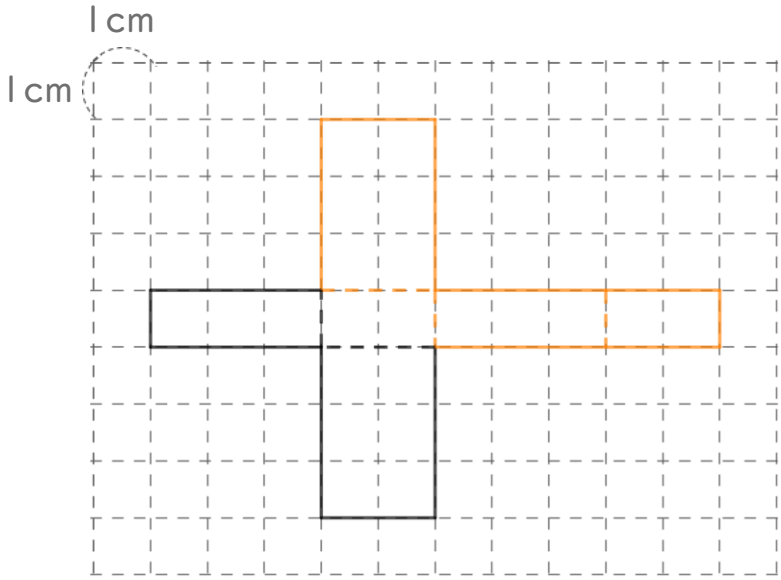


② 1辺 2cm の立方体

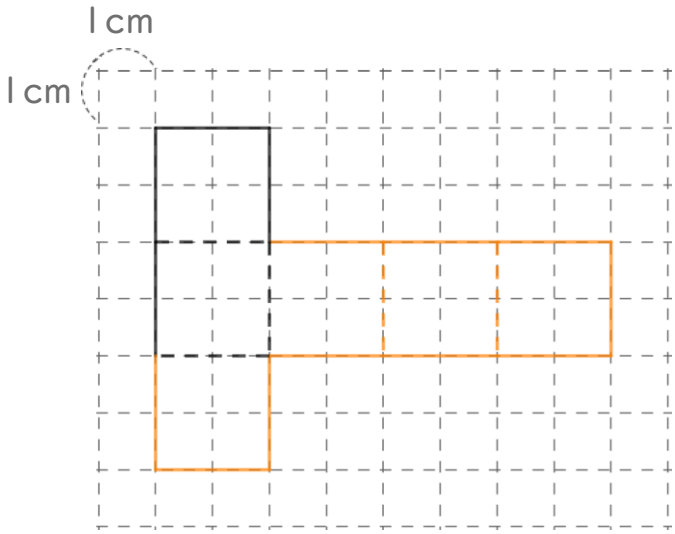


③ たて　1cm
横　2cm
高さ　1cm　の直方体

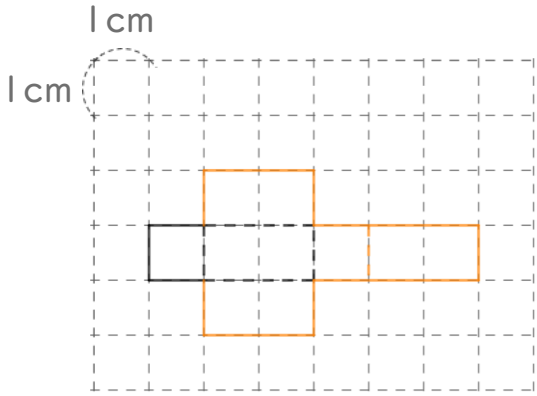




すらすらぷりんと