角の大きさ 11

◉ 時計回りの角の作図

4

日にち：　　月　　日

名まえ

・次の角をかきましょう。

① 50°

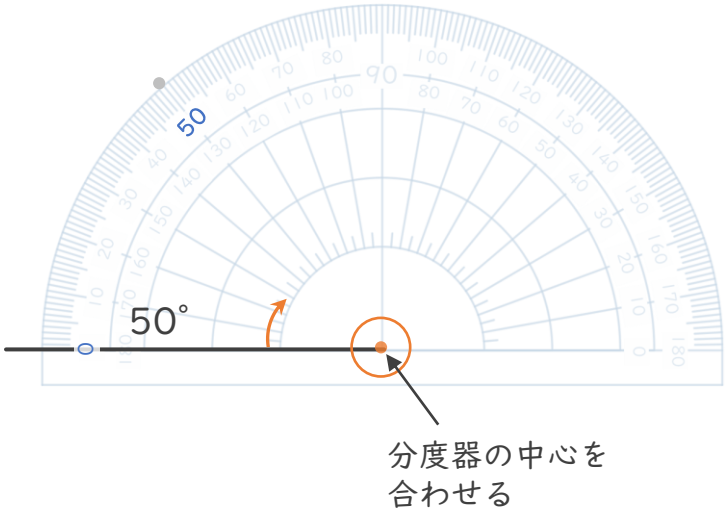

② 25°

③ 110°

すらすらぷりんと

角の大きさ 11

◉ 時計回りの角の作図

4

日にち：　　月　　日

名まえ

・次の角をかきましょう。

① 50°

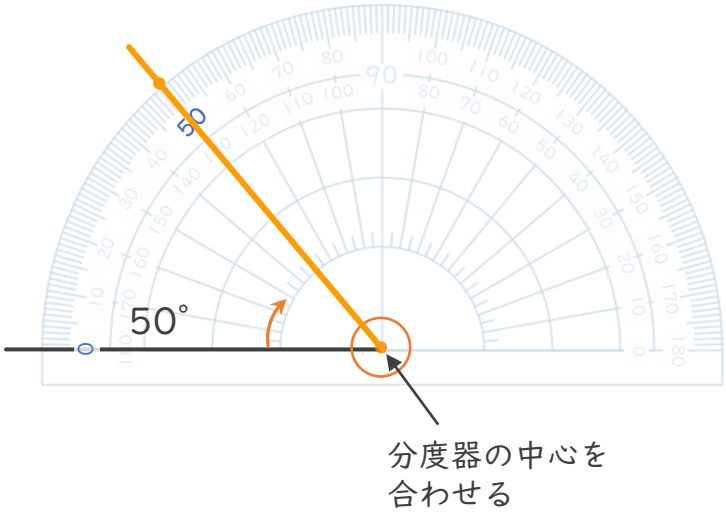

② 25°

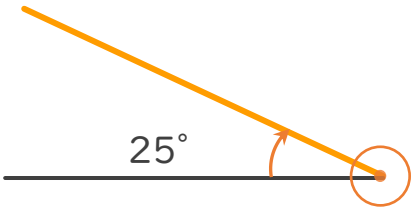

③ 110°

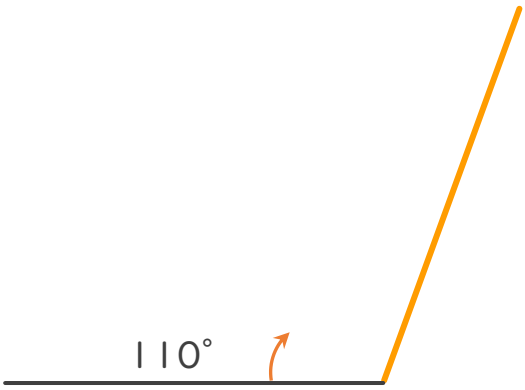

すらすらぷりんと