わり算の筆算 22 4

◎ 2けたでわるわり算とは

日にち：　　月　　日

名まえ

・ 色紙が80まいあります。
この色紙を1人に40まいずつ分けると、何人に分けられますか。

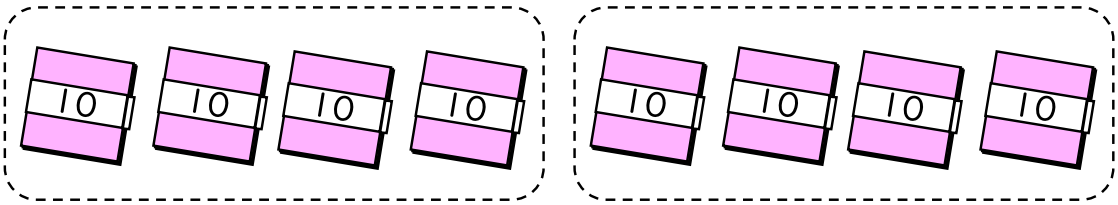

式: 80 ÷ 40 = □

8 ÷ 2 = 2
80 ÷ 20 = ?
等しい

答え：

・ 色紙が60まいあります。
この色紙を1人に30まいずつ分けると、何人に分けられますか。

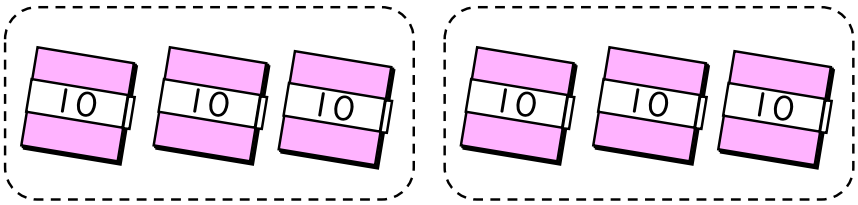

式: 60 ÷ 20 = □

6 ÷ 3 = 2
60 ÷ 30 = ?
等しい

答え：

すらすらぷりんと

わり算の筆算 22 4

◎ 2けたでわるわり算とは

日にち：　　月　　日

名まえ

・ 色紙が80まいあります。
この色紙を1人に40まいずつ分けると、何人に分けられますか。

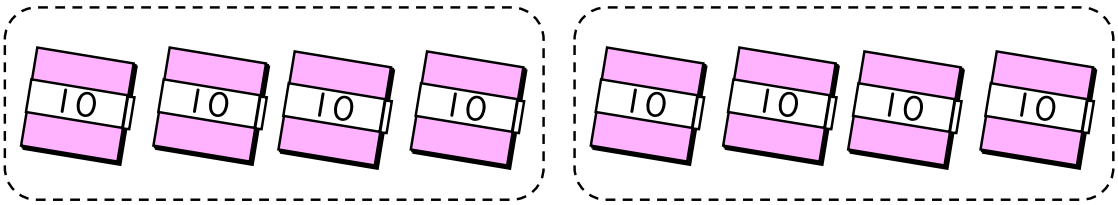

式: 80 ÷ 40 = 2

8 ÷ 2 = 2
80 ÷ 20 = ?
等しい

答え：　2人

・ 色紙が60まいあります。
この色紙を1人に30まいずつ分けると、何人に分けられますか。

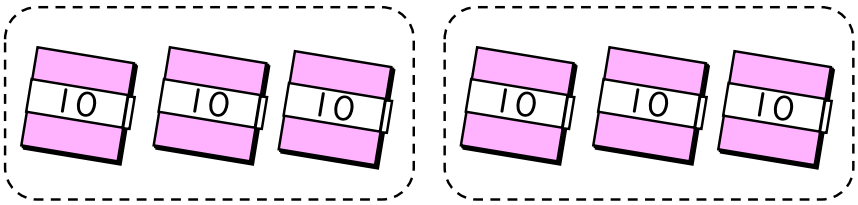

式: 60 ÷ 20 = 2

6 ÷ 3 = 2
60 ÷ 30 = ?
等しい

答え：　2人

すらすらぷりんと