角の大きさ 7

◎ 180° から
引いて求める角度

4

日にち：　　月　　日

名まえ

・ ㋐ の角度を、計算で求めましょう。（うすい字はなぞりましょう。）

①

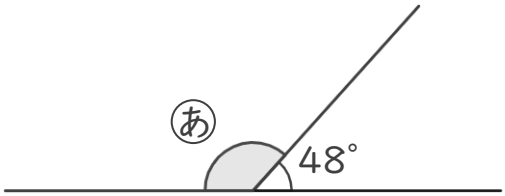

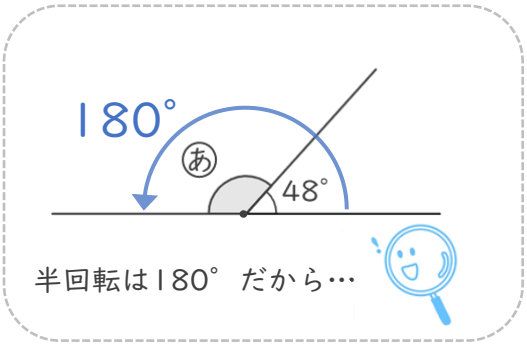

式： 180° − 48° ＝

答え（　　）

②

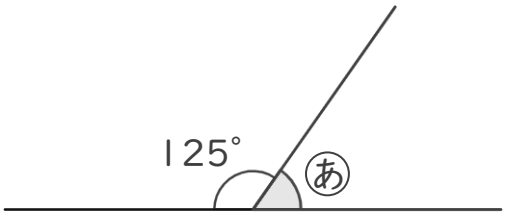

式：

答え（　　）

③

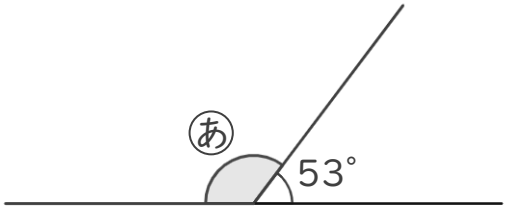

式：

答え（　　）

すらすらぷりんと

角の大きさ 7

◎ 180° から
引いて求める角度

4

日にち：　　月　　日

名まえ

・ ㋐ の角度を、計算で求めましょう。（うすい字はなぞりましょう。）

①

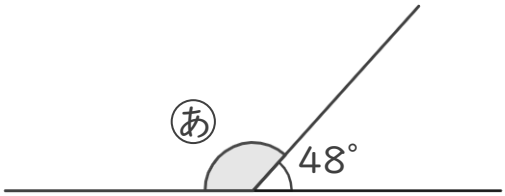

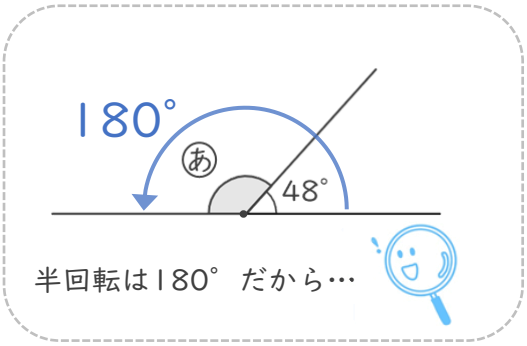

式： 180° − 48° ＝ 132°

答え（　132°　）

②

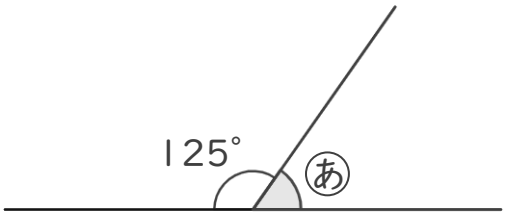

式： 180° − 125° ＝ 55°

答え（　55°　）

③

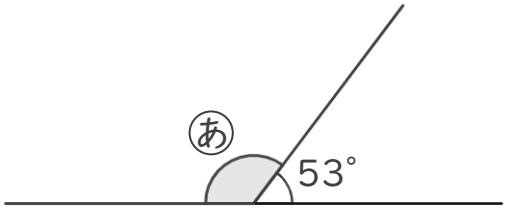

式： 180° − 53° ＝ 127°

答え（　127°　）

すらすらぷりんと