面積のはかり方と表し方 2　5

◎ マス目の数で広さくらべ

日にち：　　月　　日

名まえ

・次の図形は１マスが１cm² です。次の問いに答えましょう。
(うすい字はなぞりましょう。)

㋐

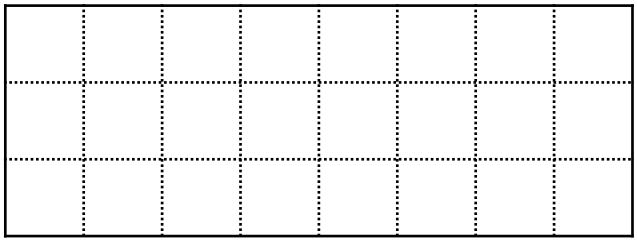

㋑



① 図形はぞれぞれ何マスですか。

㋐：　24 マス　㋑：

② 図形はそれぞれ何cm² ですか。

㋐：　　㋑：

③ どちらが広いでしょう。　　答え：

すらすらぷりんと

面積のはかり方と表し方 2　5

◎ マス目の数で広さくらべ

日にち：　　月　　日

名まえ

・次の図形は１マスが１cm² です。次の問いに答えましょう。
(うすい字はなぞりましょう。)

㋐

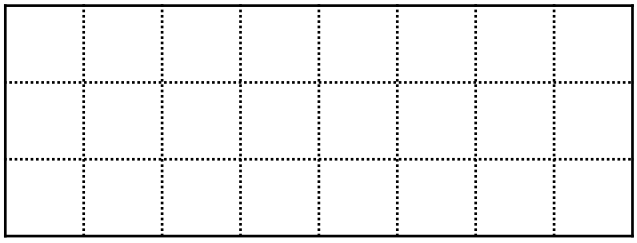

㋑



① 図形はそれぞれ何マスですか。

㋐：　24　マス　㋑：　30　マス

② 図形はそれぞれ何cm² ですか。

㋐：　24　cm²　㋑：　30　cm²

③ どちらが広いでしょう。

答え：　㋑

すらすらぷりんと