角の大きさ 16

◎ 交わる２直線の向かい合う角

5

日にち：　　月　　日

名まえ

・ ㋐, ㋑ の角度はそれぞれ何度ですか。

①

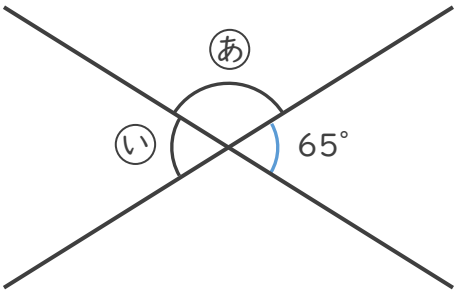

式：

㋐（　　）

㋑（　　）

②

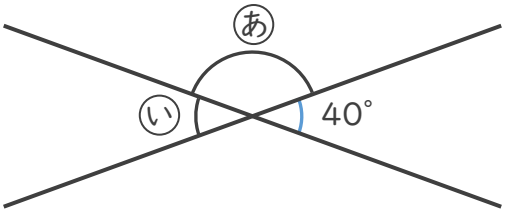

式：

㋐（　　）

㋑（　　）

すらすらぷりんと

角の大きさ 16

◎ 交わる２直線の向かい合う角

5

日にち：　　月　　日

名まえ

・ ㋐, ㋑ の角度はそれぞれ何度ですか。

①

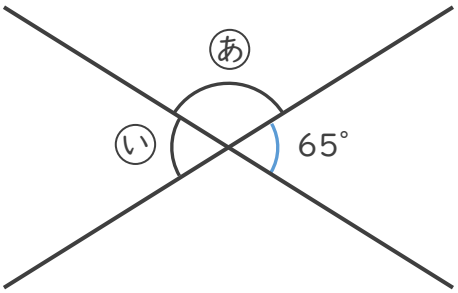

式： ㋐ の角度は、

180° − 65° = 115°

㋑ の角度は、

180° − 115° = 65°

㋐（ 115° ）

㋑（ 65° ）

②

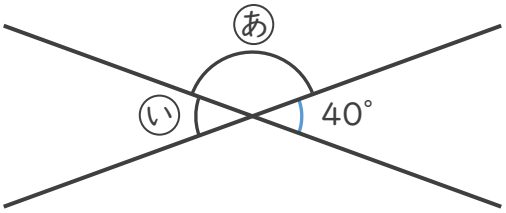

式： ㋐ の角度は、

180° − 40° = 140°

㋑ の角度は、

180° − 140° = 40°

㋐（ 140° ）

㋑（ 40° ）

すらすらぷりんと